［教授用資料］

本資料は，「教科書発行者行動規範」に則ったものです。

みんなと学ぶ
小学校 算数 2年

ねんおしプリント

2020 年版 教科書準拠 **前期用**



学校図書

さんすう ねんおし プリント

組	番	名前

❶ ひょうと　グラフ（せいりの　しかた）

1　8月の　天気しらべを　しました。

8月の　天気

1日	2日	3日	4日	5日	6日	7日
						
8日	9日	10日	11日	12日	13日	14日
						
15日	16日	17日	18日	19日	20日	21日
						
22日	23日	24日	25日	26日	27日	28日
						
29日	30日	31日				
						

晴（は）れ　 くもり　 雨

8月の　天気

		

①　天気の　日数（にっすう）を　〇を　かいて，グラフに　あらわしましょう。

②　天気の　日数を　ひょうに　あらわしましょう。

8月の　天気

天気	晴れ	くもり	雨
日数（日）			

③　晴れと　くもりでは，どちらが　何日多（なんにちおお）いでしょうか。

（　　）が（　　）日多い。

ひとつだけ　ぬりましょう。





さんすう ねんおし プリント



組	番	名前

ひとつだけ　ぬりましょう。

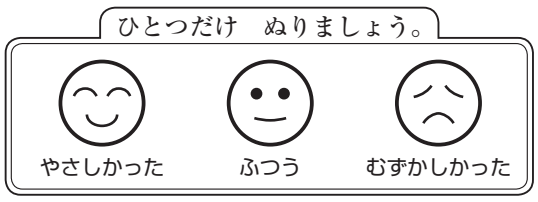

❶ ひょうと　グラフ（見やすい　グラフ）

1　みんなの　すきな　スポーツを　しらべます。名前カードを　すきな　スポーツの　ところに　はりました。

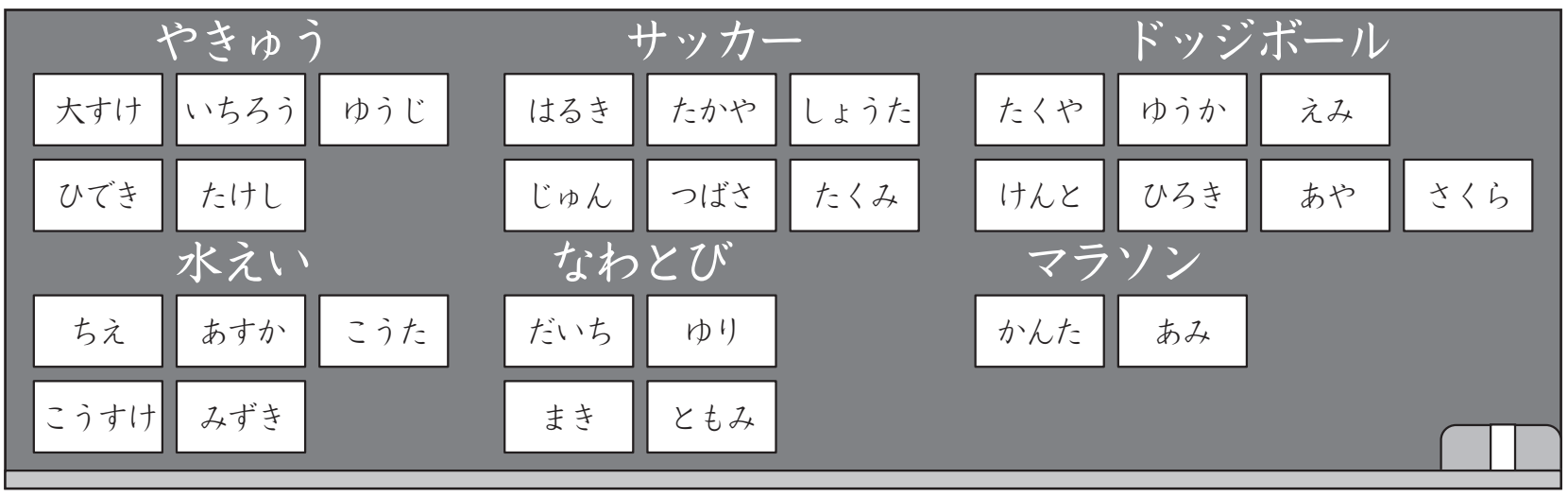

①　それぞれの　スポーツを　えらんだ　人数を，ひょうに　書きましょう。

すきな　スポーツ

すきなスポーツ	やきゅう	サッカー	ドッジボール	水えい	なわとび	マラソン
人数（人）	5					

②　○を　つかって，左から　人数の　多い　じゅんに　右の　グラフに　あらわしましょう。

すきな　スポーツ

③　人数が　いちばん　少ない　スポーツは　どれですか。
　また　何人ですか。
（　　）で（　　）人

④　人数が　2番目に　多い　スポーツは　どれですか。
　また　何人ですか。
（　　）で（　　）人



さんすう ねんおし プリント



組	番	名前

❷ 時こくと　時間（1）

1　つぎの　□に　あてはまる　数や　ことばを　書きましょう。

①　1日の　はじまりは，［　　］0時です。

②　時計の　みじかいはりは，1日に　［　　］回　まわります。

③　1日＝［　　］時間

④　1時間＝［　　］分

⑤　午前0時は　午後［　　］時とも　いいます。

⑥　午後0時は　午前［　　］時とも　いい，［　　］とも　いいます。

⑦　長いはりが　1目もり　すすむ　時間は［　　］です。

⑧　みじかいはりが　1まわりする　時間は［　　］です。

2　時間や　時こくの　つかい方が　正しくないのは　どれですか。

①

今日は　3時間，
あそんだよ。

②



正午は，
1日の　まんなかの
時こくだね。

③

えきで　でん車の
時こくひょうを
もらったよ。

④



べんきょうして
いた　時こくは，
2時間だよ。

答え（　　）

ひとつだけ　ぬりましょう。



さんすう ねんおし プリント



組	番	名前

❸ 2けたの　たし算と　ひき算（たし算）

1 きのう　くりを　12こ　ひろいました。今日は　15こ　ひろいました。くりは　合わせて　何こ　ひろいましたか。

①　くりの　数を　もとめる　しきを　書きましょう。

②　教科書30ページの　だいきさんの　考えで　計算しようと　しています。□に　あてはまる　数を　書きましょう。

10の　たばが　□　こと，

ばらが　□　こで，　□　。

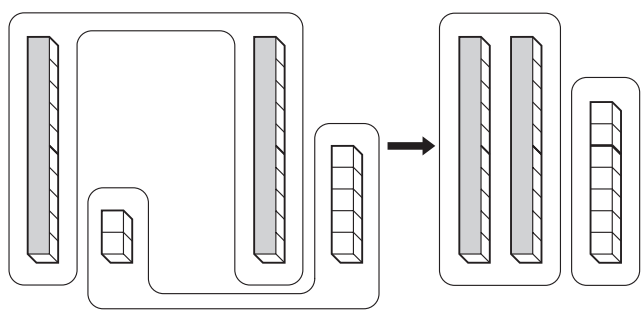

③　くりは　合わせて　何こ　ひろいましたか。　□　こ。

2 あめを　23こ　もっていました。あとから　14こ　もらいました。ぜんぶで　あめは　何こに　なった　でしょうか。

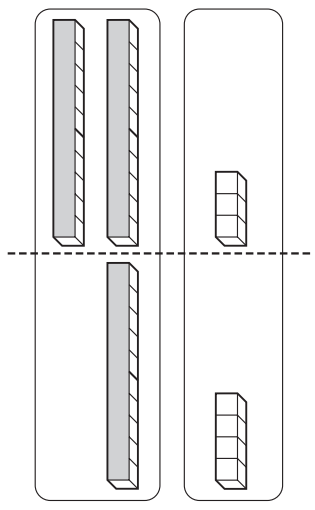

①　あめの　数を　もとめる　しきを　書きましょう。

②　教科書30ページの　ゆいさんの　考えで　計算しようと　しています。□に　あてはまる　数を　書きましょう。

たてに　ならべると，数えやすく　なります。

10の　たばが　□　こと，ばらが　□　こで　□　。

③　あめの　数は　ぜんぶで　何こに　なったでしょうか。　□　こ。

ひとつだけ　ぬりましょう。

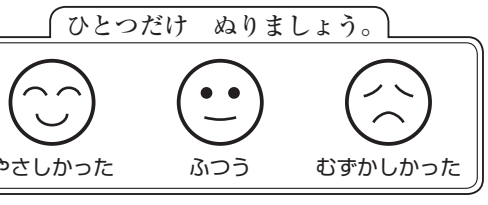



さんすう ねんおし プリント



組	番	名前

ひとつだけ　ぬりましょう。

❸ 2けたの　たし算と　ひき算（ひき算）

1　水そうに　魚が　27ひき　います。
15ひき　すくいました。水そうには，何びき
のこっているでしょうか。

①　のこっている　魚の　数を　もとめる　しきを　書きましょう。

②　教科書34ページの　だいきさんの　考えで　計算しようと
しています。□に　あてはまる数を　書きましょう。

27を　□　と　7に　分けます。

15を　10と　□　に　分けます。

□ − 10 ＝ □　　7 − □ ＝ □

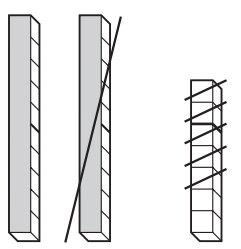

□ と □ を　たして　□。

③　水そうには，何びき　のこっているでしょうか。　□ ひき

2　みかんが　13こ，りんごが　29こ　あります。
どちらが　どれだけ　多いでしょうか。

①　しきを　書きましょう。

②　教科書34ページの　ゆいさんの　考えで
計算しようと　しています。□に　あてはまる
数を　書きましょう。

10の　たばが　□　こ。

□ から　1を ひいて　□。

9から　□　を　ひいて　□。

十のくらいが　□，一のくらいが
□ で　□。

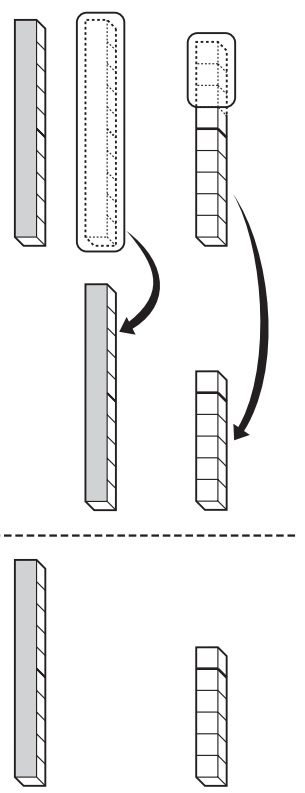

③　どちらが　どれだけ　多いでしょうか。

□ が　□　こ　多い。



さんすう ねんおし プリント



組	番	名前

❹ たし算（ざん）の　ひっ算（2けたの　たし算）

12 ＋ 24 ＝ □

	十	一
＋	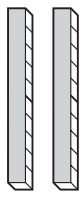	
	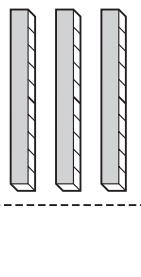	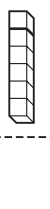

1　ひっ算で　しましょう。

① 31 ＋ 56

＋		

② 50 ＋ 24

＋		

③ 27 ＋ 30

＋		

④ 40 ＋ 30

＋		

⑤ 42 ＋ 52

＋		

⑥ 37 ＋ 62

＋		

⑦ 15 ＋ 64

＋		

⑧ 50 ＋ 32

＋		

⑨ 68 ＋ 10

＋		

⑩ 20 ＋ 60

＋		

ひとつだけ　ぬりましょう。





さんすう ねんおし プリント



組	番	名前

❹ たし算（ざん）の　ひっ算（2けたの　たし算）

4 + 21 = □

	十	一
		▮
+	▮▮	▪
	▮▮	▮

1　ひっ算で　しましょう。

① 3 + 15

② 6 + 21

③ 23 + 4

④ 32 + 6

⑤ 6 + 13

⑥ 8 + 21

⑦ 32 + 5

⑧ 85 + 3

⑨ 14 + 3

⑩ 7 + 32

ひとつだけ　ぬりましょう。





さんすう ねんおし プリント



組	番	名前

❹ たし算（ざん）の　ひっ算（くり上がりの　ある　たし算）

25 ＋ 17 ＝ □

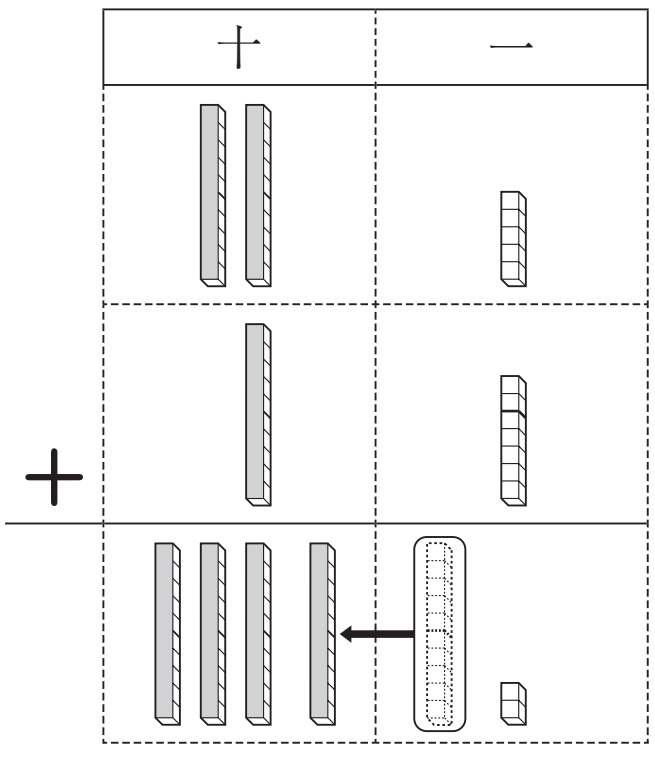

1　つぎの　計算を　ひっ算で　しましょう。

① 35 ＋ 26

② 28 ＋ 36

③ 49 ＋ 13

④ 36 ＋ 16

⑤ 28 ＋ 63

⑥ 43 ＋ 37

⑦ 19 ＋ 18

⑧ 16 ＋ 37

⑨ 19 ＋ 27

⑩ 44 ＋ 17

ひとつだけ　ぬりましょう。



さんすう ねんおし プリント



組	番	名前

❹ たし算（ざん）の　ひっ算（くり上がりの　ある　たし算）

1　つぎの　ひっ算は　まちがっています。
正しく　計算（けいさん）しましょう。

①
$$\begin{array}{r} 27 \\ +\,53 \\ \hline 70 \end{array} \longrightarrow$$

②
$$\begin{array}{r} 48 \\ +\,25 \\ \hline 63 \end{array} \longrightarrow$$

③
$$\begin{array}{r} 8 \\ +\,15 \\ \hline 95 \end{array} \longrightarrow$$

④
$$\begin{array}{r} 19 \\ +\,23 \\ \hline 312 \end{array} \longrightarrow$$

2　つぎの　計算を　ひっ算で　しましょう。

① 67 + 23

② 49 + 11

③ 15 + 35

④ 78 + 9

⑤ 8 + 13

⑥ 4 + 56

ひとつだけ　ぬりましょう。

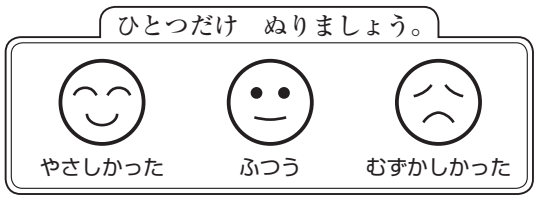



さんすう ねんおし プリント



組	番	名前

❹ たし算（ざん）の　ひっ算（たし算の　きまり）

1 たされる数（かず）と　たす数を　入れかえて　計算（けいさん）してみましょう。

① 34 + 25

$$\begin{array}{r} 34 \\ +\,25 \\ \hline \end{array} \qquad \begin{array}{r} 25 \\ +\,34 \\ \hline \end{array}$$

② 8 + 67

$$\begin{array}{r} 8 \\ +\,67 \\ \hline \end{array} \qquad \begin{array}{r} 67 \\ +\,\ \ 8 \\ \hline \end{array}$$

2 つぎの　計算を　しましょう。また，たされる数と　たす数を　入れかえて　計算し，答（こた）えを　たしかめてみましょう。

① 35 + 53

② 24 + 60

③ 9 + 73

ひとつだけ　ぬりましょう。

やさしかった　ふつう　むずかしかった



さんすう ねんおし プリント



組	番	名前

❹ たし算（ざん）の　ひっ算（(　)を　つかった　計算（けいさん））

1　つぎの　計算を　しましょう。

①　32 ＋ 28 ＋ 2

②　24 ＋ 28 ＋ 42

③　37 ＋ 6 ＋ 24



たし算では
たす　じゅんじょを
かえて　計算できます。

【れい】23＋32＋8＝23＋(32＋8)
　　＝63　　40

2　くふうして　計算を　しましょう。

①　46 ＋ 54 ＋ 38

②　32 ＋ 49 ＋ 18

③　8 ＋ 47 ＋ 22

どれと　どれを　たすと
ぴったりした　数（かず）に　なるかな。

ひとつだけ　ぬりましょう。



さんすう ねんおし プリント



組	番	名前

ひとつだけ　ぬりましょう。

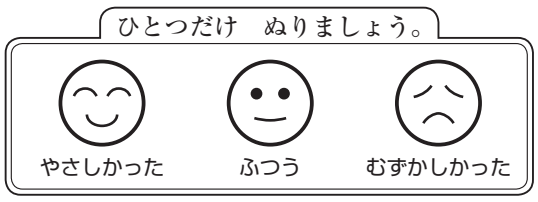

❺ ひき算（ざん）の　ひっ算（2けたの　ひき算）

36 − 15 ＝ □

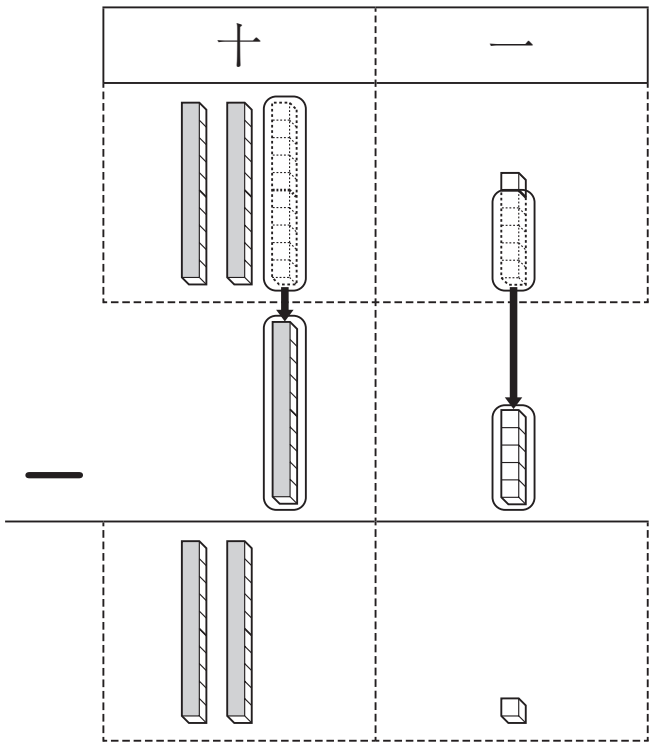

1　ひっ算で　しましょう。

① 64 − 21

② 73 − 20

③ 57 − 7

④ 38 − 36

⑤ 59 − 45

⑥ 84 − 14

⑦ 29 − 6

⑧ 83 − 22

⑨ 62 − 60

⑩ 82 − 30

⑪ 78 − 36

⑫ 43 − 3

⑬ 79 − 31



さんすう ねんおし プリント



組	番	名前

❺ ひき算（ざん）の　ひっ算
（くり下がりの　ある　ひき算）

ひとつだけ　ぬりましょう。

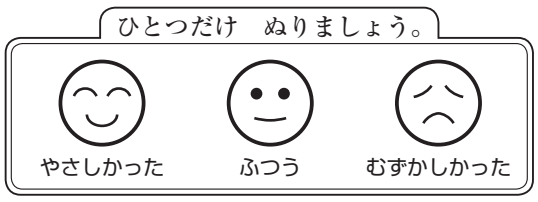

75 − 38 = □

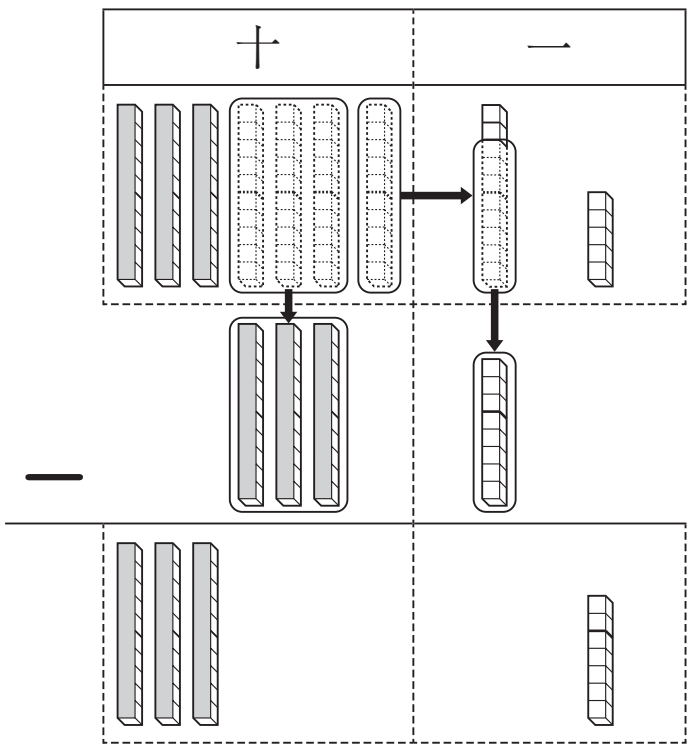

1　ひっ算で　しましょう。

① 41 − 29

② 80 − 43

③ 36 − 28

④ 40 − 7

⑤ 72 − 44

⑥ 50 − 27

⑦ 53 − 48

⑧ 70 − 62

⑨ 41 − 8

⑩ 83 − 27

⑪ 30 − 18

⑫ 64 − 59

⑬ 50 − 6

さんすう ねんおし プリント

組	番	名前

ひとつだけ　ぬりましょう。

❺ ひき算の　ひっ算
（たし算と　ひき算の　かんけい）

1　答えを　もとめましょう。また，答えの　たしかめも　しましょう。

①　2年生は　ぜんいんで　90人です。そのうち　女の子は　48人です。男の子は　何人でしょうか。

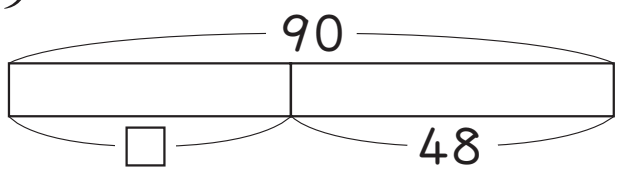

しき

答え（　　）

たしかめ

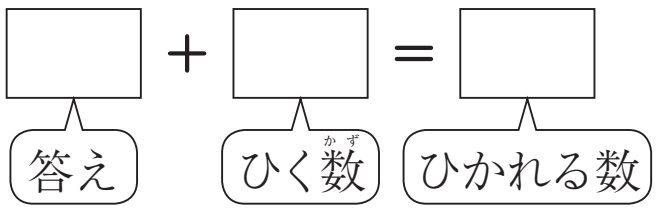

②　赤い　花と　白い　花が　合わせて　56本　さいています。赤い　花は　23本です。白い　花は　何本でしょうか。

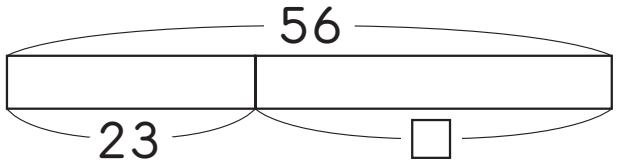

しき

答え（　　）

たしかめ

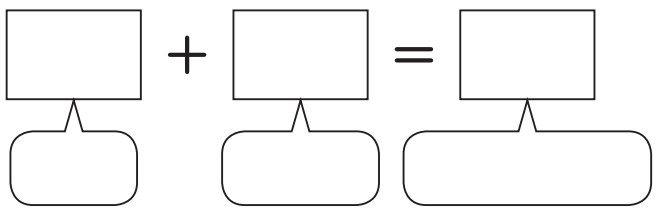

2　答えを　もとめましょう。

①　赤い　りんごが　8こ，青い　りんごが　7こ　あります。りんごは　合わせて　何こ　ありますか。

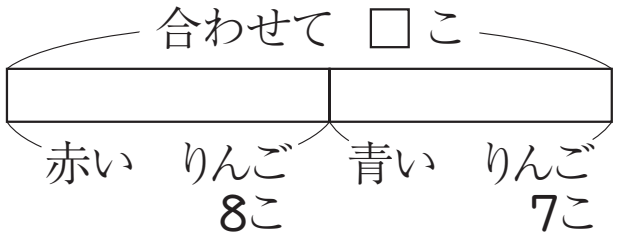

しき

答え（　　）

②　赤い　りんごと　青い　りんごが，合わせて　15こ　あります。赤い　りんごは　8こです。青い　りんごは　何こ　ありますか。

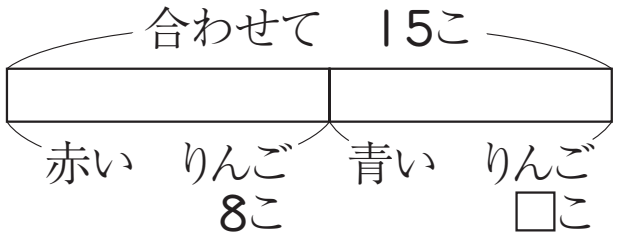

しき

答え（　　）

③　①と　②を　くらべて　気づいたところを　かきましょう。



さんすう ねんおし プリント



組	番	名前

ひとつだけ　ぬりましょう。

❺ ひき算（ざん）の　ひっ算
（ひき算の　もんだい作（づく）り）

1 2，4，7，8の　カードを　ならべて　ひき算の　もんだいを　作りました。計算（けいさん）を　しましょう。

87 −42	87 −24	84 −72	84 −27	82 −74	82 −47
78 −42	78 −24	74 −28	72 −48	48 −27	47 −28

2 1，3，5，6で，上の　ように　もんだいを　作って，計算を　しましょう。

−	−	−	−	−	−
−	−	−	−	−	−

3 □に　数字（すうじ）を　書（か）き入れて，ひき算の　もんだいを　作り，計算を　しましょう。

67 −3□	22 −□	7□ −58	58 −□9	30 −1□



さんすう ねんおし プリント



組	番	名前

❻ 1000までの　数（かず）

どんな　数え方（かぞえかた）を　すると，
数えやすいかな。



1　何（なん）こ　あるでしょうか。



答（こた）え

ひとつだけ　ぬりましょう。

やさしかった

ふつう

むずかしかった



さんすう ねんおし プリント



組	番	名前

ひとつだけ ぬりましょう。

❻ 1000までの 数（100より 大きい数）

1 □は ぜんぶで 何こ ありますか。数字で 書きましょう。
また 読み方も 書きましょう。

百	十	一
	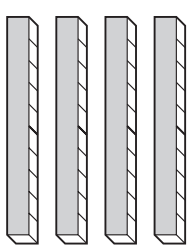	
読み方		
数字		

2 紙は 何まい ありますか。

百	十	一
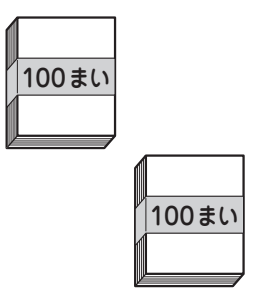	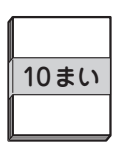	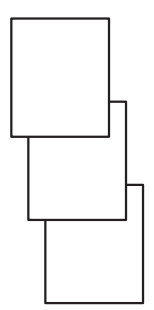
読み方		
数字		

□ まい

★ 100を 3こ あつめた 数を，三百と いいます。
三百と 四十と 六を 合わせた 数を，三百四十六といい，□と 書きます。

3 つぎの 数を 読みましょう。
【れい】126（百二十六）

392（　　）　　978（　　）
555（　　）　　874（　　）

4 つぎの 数を 数字で 書きましょう。

① 六百と 二十と 五を 合わせた 数。（　　）
② 100を 3こ，10を 2こ，1を 8こ 合わせた 数。（　　）
③ 七百二十一（　　）　④ 八百三十三（　　）
⑤ 百のくらいが 8，十のくらいが 6，一のくらいが 2の 数。（　　）



さんすう ねんおし プリント



組	番	名前

ひとつだけ　ぬりましょう。

❻ 1000までの　数（100より　大きい数）

1 □は　ぜんぶで　何こ　ありますか。数字で　書き　ましょう。
　また　読み方も　書きましょう。

百	十	一
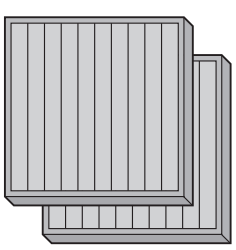		□ □ □
読み方			
数字	□	□	□

2 紙は　何まい　ありますか。

百	十	一
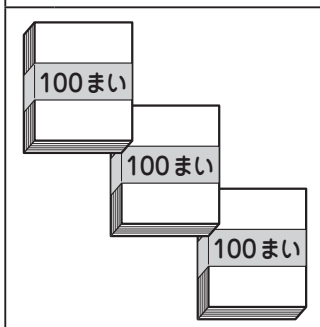	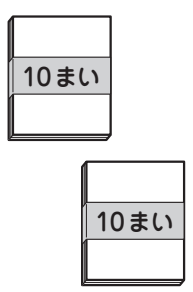	
読み方			
数字	□	□	□

□ まい

★ 二百三は　□　と　書きます。

3 つぎの　数を　読みましょう。
【れい】126（百二十六）

608（　　）　　702（　　）
304（　　）　　600（　　）

4 つぎの　数を　数字で　書きましょう。

① 百と　六を　合わせた　数。（　　）
② 100を　7こ，1を　9こ　合わせた　数。（　　）
③ 二百八十（　　）　④ 五百五十（　　）
⑤ 四百（　　）　⑥ 二百（　　）
⑦ 百のくらいが　9，十のくらいが　0，一のくらいが　3の　数。
（　　）



さんすう ねんおし プリント



組	番	名前

❻ 1000までの 数（1000までの 数）

1 つぎの 数を □に 書きましょう。

① 百のくらいが 8，十のくらいが 7，一のくらいが 5の 数。

② 百のくらいが 3，十のくらいが 0，一のくらいが 6の 数。

③ 百のくらいが 3，十のくらいが 7，一のくらいが 4の 数。

④ 100を 5こ，10を 7こ，1を 9こ 合わせた 数。

⑤ 四百八十と 読む 数。

2 2，5，8，の 3まいの 数字カードが あります。

① カードを ならべて，825より 大きい 数を 作りましょう。

② カードを ならべて，285より 小さい 数を 作りましょう。

3 左から 右へ 大きく なるように ならべましたが，まちがいが あります。

【れい】のように なおしましょう。

【れい】327 —— 372 —— 732 —— 723

① 248 —— 203 —— 302 —— 398

② 600 —— 631 —— 613 —— 641

ひとつだけ ぬりましょう。



さんすう ねんおし プリント



組	番	名前

❻ 1000までの　数（1000までの　数）

1　つぎの　数の線を　見て　答えましょう。

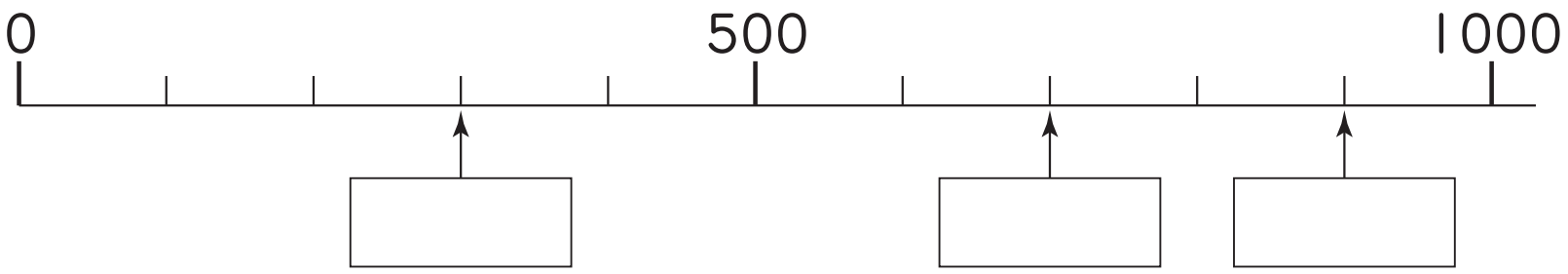

①　↑の　ところの　数を　□に　書きましょう。

②　200と　600の　目もりに　↑を　つけましょう。

2　つぎの　数の線を　見て　答えましょう。

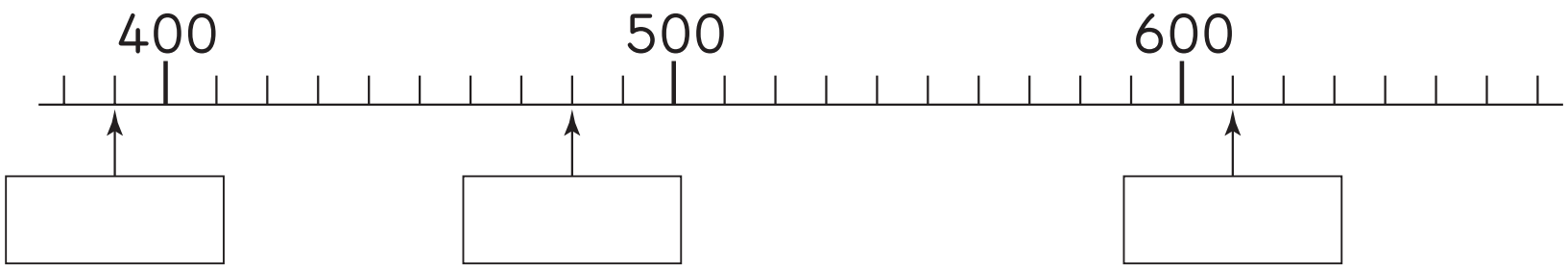

①　小さい　目もり　1つ分は　いくつでしょうか。　□

②　↑の　ところの　数を　□に　書きましょう。

③　400，580，660の　目もりに　↑を　つけましょう。

ひとつだけ　ぬりましょう。

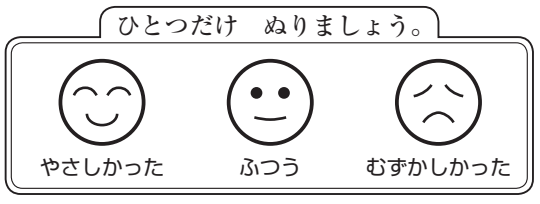

さんすう ねんおし プリント

組	番	名前

❻ 1000までの　数（かず）
（1000までの　数・10のまとまり）

ひとつだけ　ぬりましょう。

1　□に　あてはまる　数を　書（か）きましょう。

① 156 — 157 — □ — 159 — □

② 660 — □ — 680 — 690 — □

③ 200 — 300 — □ — □ — 600

④ 300 — 299 — □ — 297 — □

⑤ □ — 900 — 800 — □ — 600

2　下の　数の線（せん）で　つぎの　数を　あらわす　目もりに　↑を　つけましょう。

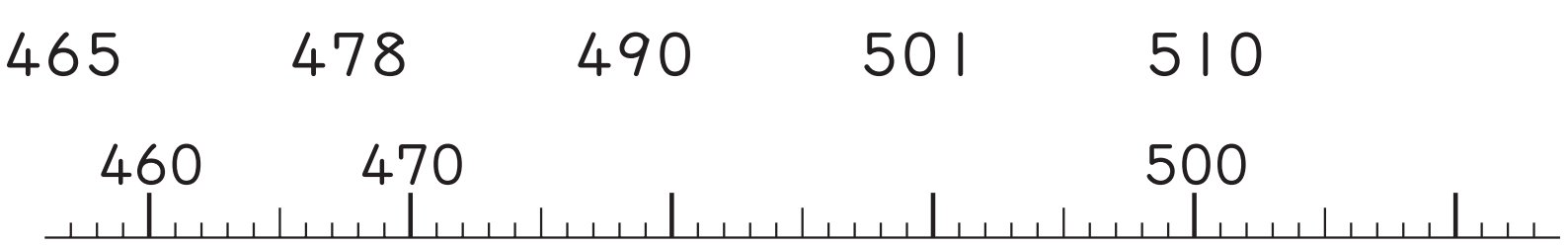

3　↑の　ところの　数を　□に　書きましょう。

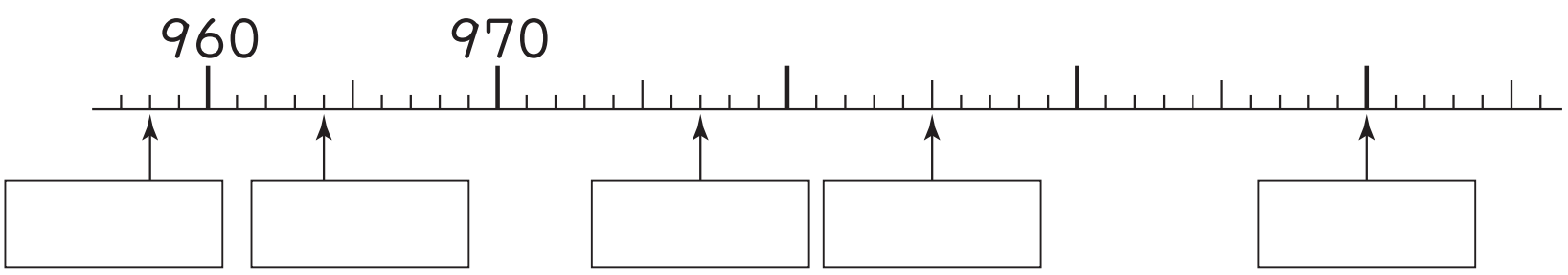

4　つぎの　□に　あてはまる　数を　書きましょう。

①　580は，□を　5こと，10を　□こ　あつめた　数。

②　10を　92こ　あつめた　数は　□。

③　100を　10こ　あつめた　数は　□。



さんすう ねんおし プリント



組	番	名前

❻ 1000までの 数（数の大小）

1 どちらの 数が 大きいでしょうか。□に あてはまる ＞か ＜を 入れましょう。

① 436 □ 429

② 403 □ 396

③ 268 □ 325

④ 956 □ 965

百	十	一
2	6	8
3	2	5

⑤ 701 □ 699

⑥ 490 □ 409

2 2つの 数が あります。1つの 数字は 虫が 食べて，一ぶぶんが 見えません。□に あてはまる ＞か ＜を 入れましょう。

① 862 □ 7

② 530 □ 52

3 虫が 食べて 見えなくなった ぶぶんが あります。あてはまる 数字を ぜんぶ 書きましょう。

① 45 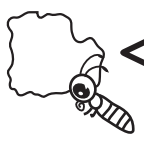 ＜ 459 （ ）

② 3 8 ＞ 354 （ ）

ひとつだけ ぬりましょう。





さんすう ねんおし プリント



❻ 1000までの　数⑧
2年5月～6月（p.68）

組	番	名前

❻ 1000までの　数（たし算と　ひき算）

1　50円の　おかしと，30円の　あめを　買います。合わせて，何円でしょうか。

おかし

あめ

しき

答え（　　）

2　80まいの　画用紙の　たばから，30まい　つかいました。のこりは　何まいでしょうか。

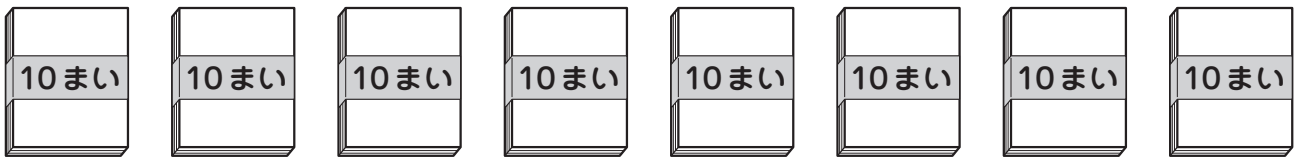

しき

答え（　　）

3　計算を　しましょう。

①　30 ＋ 10	②　20 ＋ 60	③　50 ＋ 40
④　50 ＋ 50	⑤　70 ＋ 30	⑥　90 ＋ 30
⑦　40 － 20	⑧　70 － 30	⑨　80 － 80
⑩　100 － 20	⑪　120 － 30	⑫　150 － 90

ひとつだけ　ぬりましょう。



さんすう ねんおし プリント



組	番	名前

❼ 大きい数（かず）の　たし算（ざん）と　ひき算
（答（こた）えが　3けたに　なる　たし算）

74 ＋ 53 ＝ □

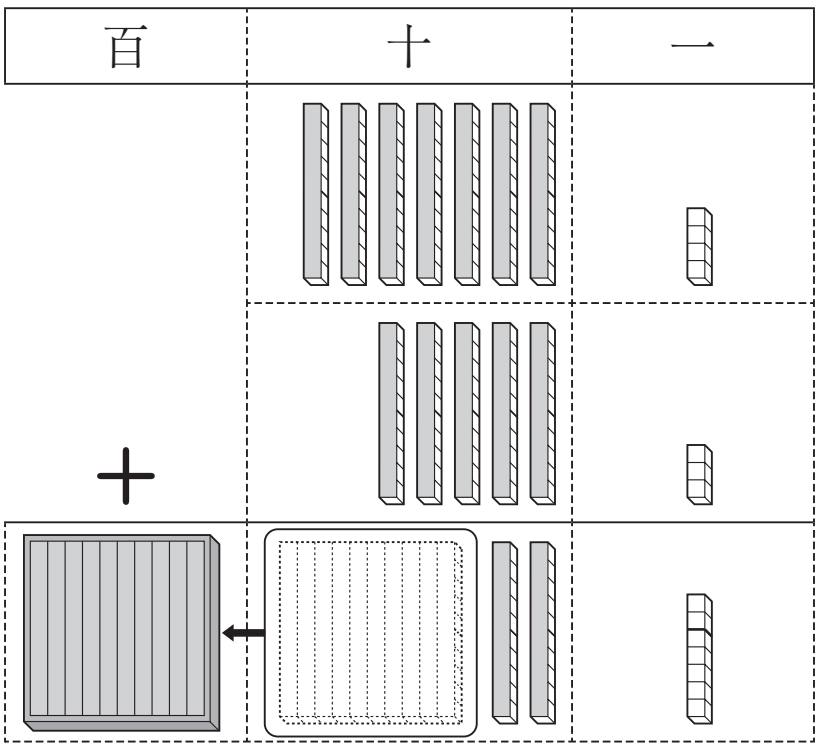

1　ひっ算で　しましょう。

① 96 ＋ 72

② 40 ＋ 70

③ 58 ＋ 60

④ 82 ＋ 46

⑤ 64 ＋ 51

⑥ 61 ＋ 70

⑦ 43 ＋ 84

⑧ 70 ＋ 32

⑨ 33 ＋ 85

⑩ 35 ＋ 94

ひとつだけ　ぬりましょう。

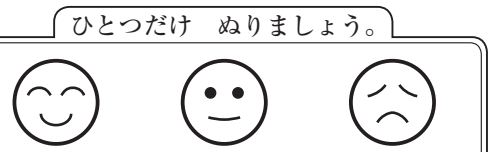

さんすう ねんおし プリント

組	番	名前

❼ 大きい数（かず）の　たし算（ざん）と　ひき算
（答（こた）えが　3けたに　なる　たし算）

46 ＋ 78 ＝ □

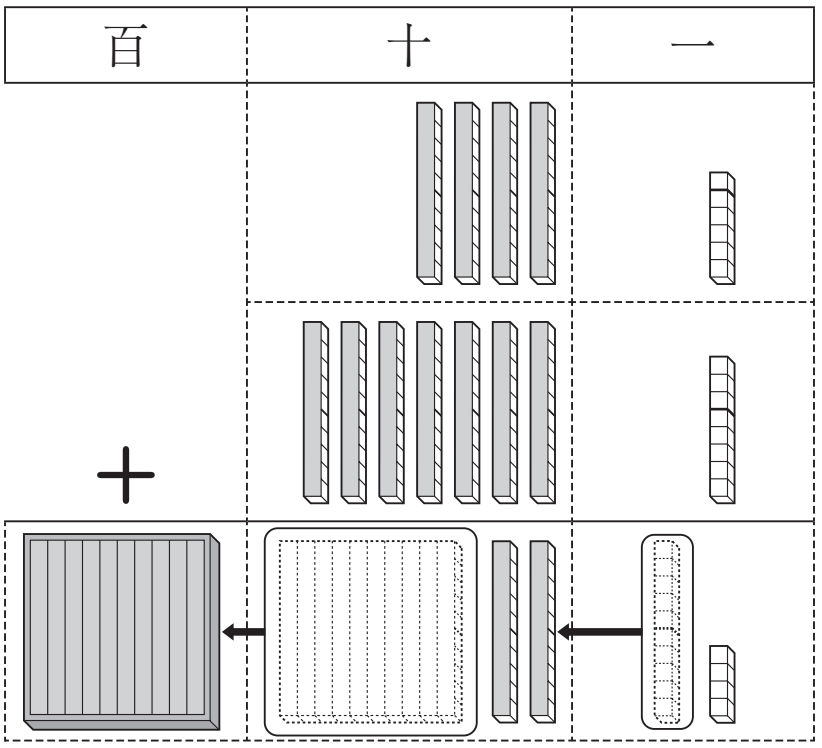

1　ひっ算で　しましょう。

① 28 ＋ 95

② 36 ＋ 68

③ 46 ＋ 84

④ 43 ＋ 57

⑤ 8 ＋ 97

⑥ 92 ＋ 8

⑦ 34 ＋ 68

⑧ 52 ＋ 49

⑨ 98 ＋ 6

⑩ 93 ＋ 7

ひとつだけ　ぬりましょう。





さんすう ねんおし プリント



組	番	名前

ひとつだけ　ぬりましょう。

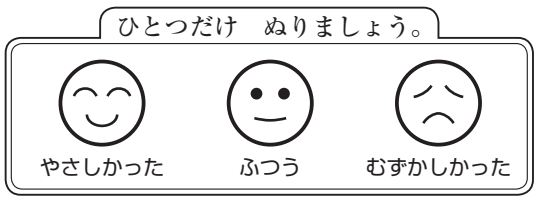

❼ 大きい数の　たし算と　ひき算
（3けたの　たし算）

1　はがきが　400まい，たばに　なって
います。その上に　はがきの　たば　500まいを　かさねました。
ぜんぶで　何まいに　なったでしょうか。

しき

答え（　　）

2　つぎの　計算を　しましょう。

①　200 + 400　　②　100 + 900

③　300 + 500　　④　700 + 300

⑤　800 + 100　　⑥　200 + 800

3　ひっ算で　しましょう。

①　428 + 6　　②　567 + 19　　③　627 + 64

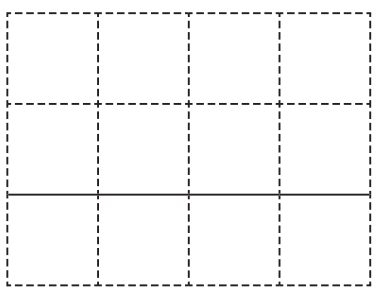

④　325 + 37　　⑤　254 + 36　　⑥　119 + 1

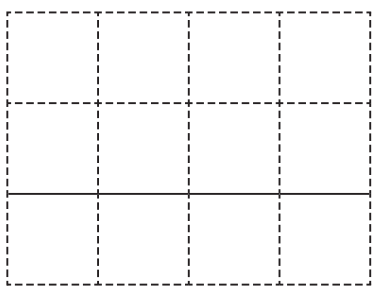

⑦　829 + 42　　⑧　246 + 5　　⑨　721 + 59

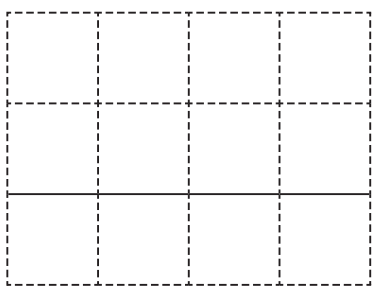



さんすう ねんおし プリント



組	番	名前

❼ 大きい数（かず）の　たし算（ざん）と　ひき算（たし算の　おさらい）

1　ひっ算や　くふうして　計算（けいさん）を　しましょう。

①　53 + 55	②　38 + 87	③　63 + 54
④　64 + 36	⑤　66 + 74	⑥　50 + 64
⑦　8 + 92	⑧　9 + 99	⑨　143 + 7
⑩　84 + 17	⑪　93 + 8	⑫　50 + 57
⑬　38 + 62	⑭　44 + 66	⑮　55 + 55
⑯　66 + 66	⑰　77 + 77	⑱　88 + 88
⑲　99 + 99	⑳　200 + 400	㉑　500 + 300
㉒　300 + 700	㉓　617 + 67	㉔　739 + 52

ひとつだけ　ぬりましょう。





さんすう ねんおし プリント



組	番	名前

❼ 大きい数（かず）の　たし算（ざん）と　ひき算（おさらい）

1　ひっ算を　しましょう。

① 324 + 32	② 206 + 31	③ 464 + 7	④ 509 + 9
⑤ 537 + 38	⑥ 606 + 78	⑦ 418 + 43	⑧ 625 + 35
⑨ 227 + 46	⑩ 505 + 26	⑪ 469 + 20	⑫ 323 + 49

2　みつるさんは，本を　おととい　52ページ，きのう　49ページ，今日（きょう），48ページ　読（よ）みました。
合（あ）わせて　何（なん）ページ　読んだでしょうか。

しき

答（こた）え（　　）

ひとつだけ　ぬりましょう。

さんすう ねんおし プリント

組	番	名前

❼ 大きい数（かず）の　たし算（ざん）と　ひき算

（100より　大きい　数から　ひく　ひき算）

138 − 53 = □

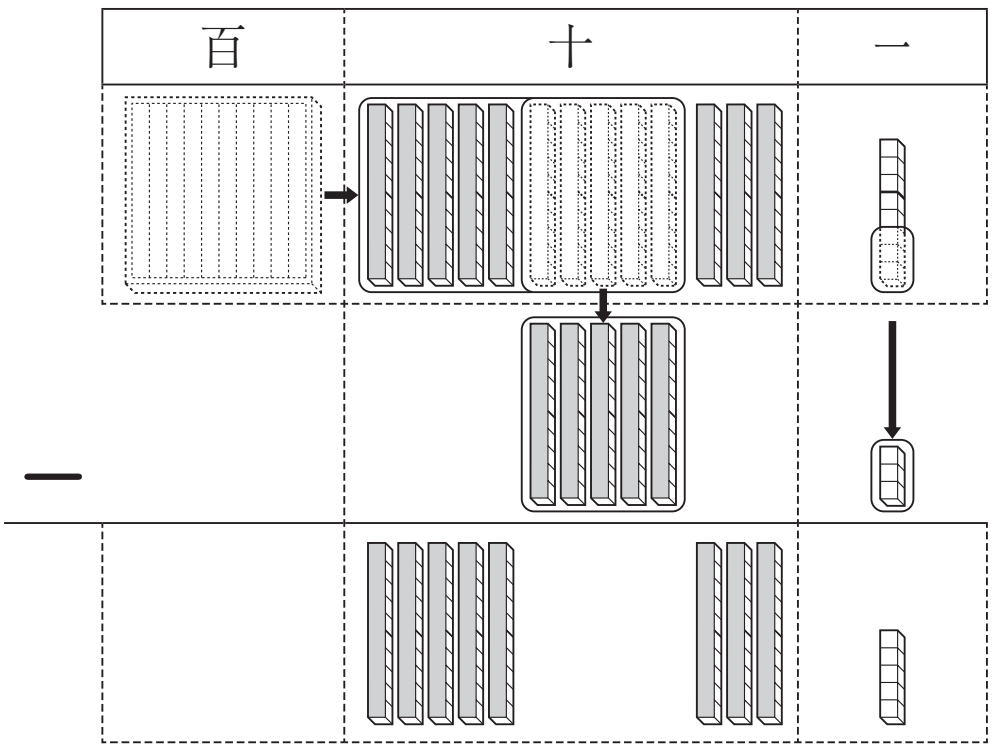

125 − 87 = □

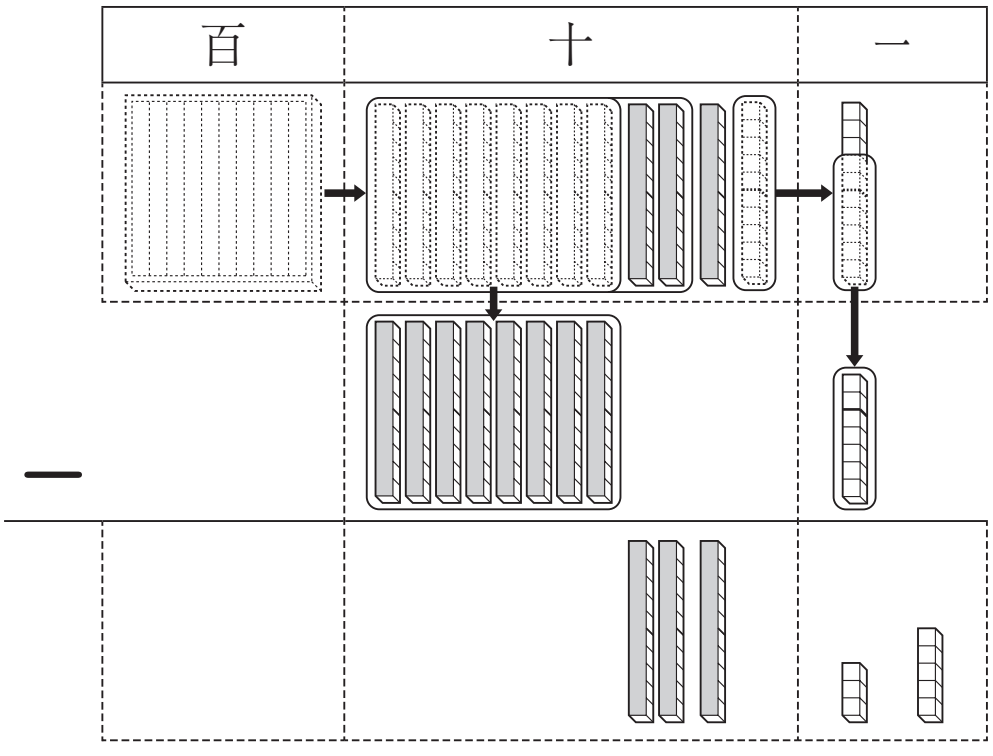

1　ひっ算で　しましょう。

① 145 − 83

−			

② 128 − 42

−			

2　ひっ算で　しましょう。

① 131 − 59

−			

② 136 − 48

−			

③ 147 − 68

−			

④ 126 − 77

−			

ひとつだけ　ぬりましょう。

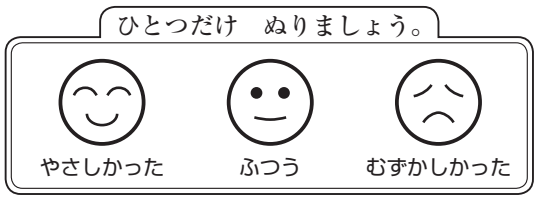

さんすう ねんおし プリント

組	番	名前

❼ 大きい数（かず）の　たし算（ざん）と　ひき算

（100より　大きい　数から　ひく　ひき算）

102 － 64 ＝ □

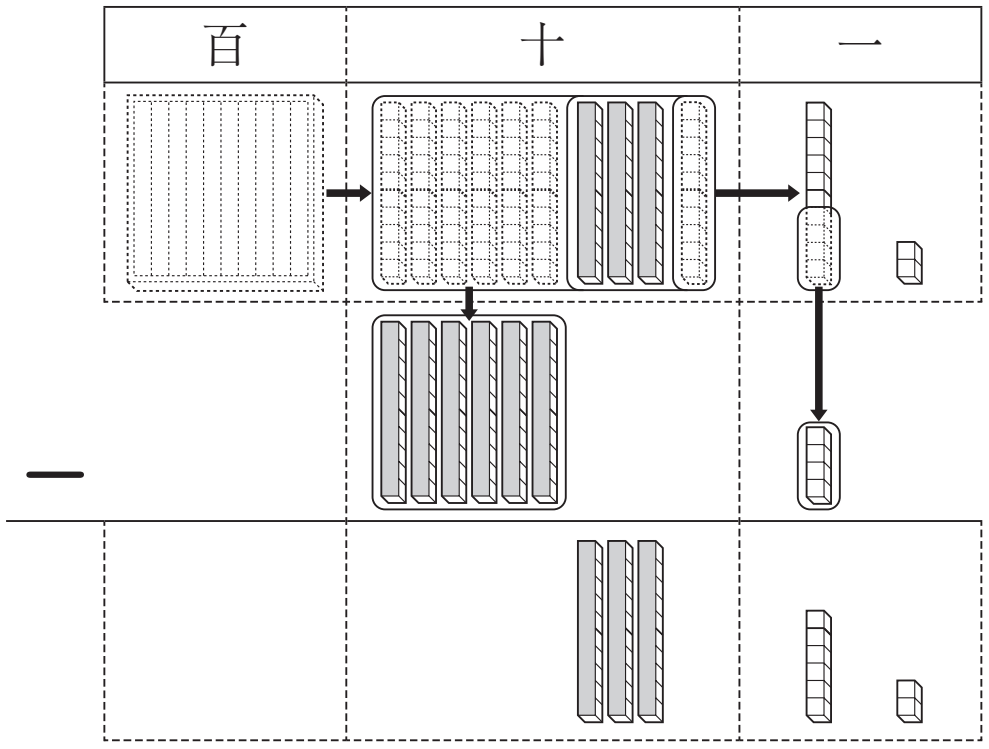

1　ひっ算で　しましょう。

①　107 － 48

－			

②　103 － 8

－			

2　ひっ算で　しましょう。

①　104 － 58

②　101 － 37

③　100 － 68

④　100 － 55

⑤　104 － 8

⑥　106 － 9

⑦　103 － 96

⑧　108 － 99

ひとつだけ　ぬりましょう。





さんすう ねんおし プリント



組	番	名前

❼ 大きい数(かず)の　たし算(ざん)と　ひき算
（3けたの　ひき算，3けたから　1けた，2けたを　ひく　計算(けいさん)）

1　つぎの　計算を　しましょう。

① 800 − 500　　② 400 − 200

③ 600 − 200　　④ 1000 − 300

⑤ 700 − 100　　⑥ 900 − 200

⑦ 500 − 300　　⑧ 1000 − 600

2　ひっ算で　しましょう。

① 528 − 5　　② 382 − 4　　③ 292 − 5

④ 345 − 23　　⑤ 352 − 29　　⑥ 455 − 37

⑦ 420 − 18　　⑧ 580 − 51　　⑨ 240 − 26

ひとつだけ　ぬりましょう。



さんすう ねんおし プリント



2年6月（ほじゅう）

組	番	名前

❼ 大きい数（かず）の　たし算（ざん）と　ひき算
（ひき算の　おさらい）

ひとつだけ　ぬりましょう。



1　ひき算を　しましょう。

①	59 − 14	75 − 63	55 − 33	93 − 33	62 − 52
②	76 − 3	34 − 2	68 − 8	39 − 20	83 − 40
③	70 − 40	62 − 61	56 − 54	32 − 32	90 − 90
④	43 − 18	73 − 15	63 − 34	54 − 9	81 − 7
⑤	60 − 36	30 − 19	70 − 51	80 − 44	50 − 5
⑥	56 − 48	42 − 37	85 − 76	50 − 45	40 − 33
⑦	142 − 51	163 − 82	129 − 95	185 − 92	111 − 31
⑧	105 − 54	103 − 83	132 − 60	186 − 90	140 − 50
⑨	143 − 57	172 − 83	126 − 49	130 − 73	140 − 96



さんすう ねんおし プリント



組	番	名前

❼ 大きい数（かず）の　たし算（ざん）と　ひき算（ひき算の　おさらい）

1　ひっ算で　しましょう。

①　31 − 15	②　62 − 56	③　86 − 83
④　50 − 36	⑤　70 − 67	⑥　69 − 41
⑦　53 − 9	⑧　30 − 6	⑨　25 − 19
⑩　111 − 33	⑪　106 − 47	⑫　152 − 79
⑬　140 − 46	⑭　160 − 71	⑮　135 − 96
⑯　100 − 55	⑰　100 − 94	⑱　137 − 9
⑲　127 − 33	⑳　151 − 99	㉑　123 − 45

ひとつだけ　ぬりましょう。



さんすう ねんおし プリント



組	番	名前

❼ 大きい数（かず）の　たし算（ざん）と　ひき算
（3けたから　1けた，2けたを　ひく　計算（けいさん））

1　ひっ算を　しましょう。

① 367 − 46	② 478 − 35	③ 654 − 33	④ 343 − 43
⑤ 647 − 42	⑥ 759 − 43	⑦ 817 − 17	⑧ 258 − 5
⑨ 365 − 38	⑩ 320 − 19	⑪ 472 − 19	⑫ 353 − 36
⑬ 867 − 58	⑭ 462 − 4	⑮ 589 − 24	⑯ 754 − 41

（はってん）

① 437 − 54	② 638 − 77	③ 209 − 62	④ 314 − 66
⑤ 574 − 78	⑥ 940 − 48	⑦ 273 − 89	⑧ 314 − 16

ひとつだけ　ぬりましょう。

さんすう ねんおし プリント

組	番	名前

ひとつだけ　ぬりましょう。

❽ 長さ（1）（長さの　くらべ方）

1　図を　見て　答えましょう。

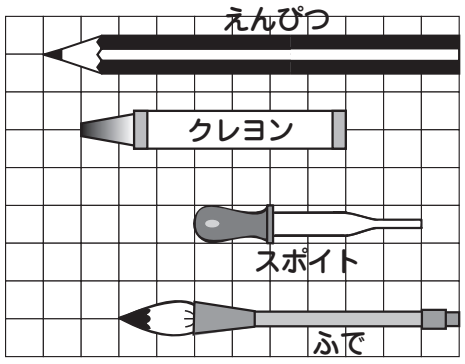

①　ます　いくつ分の　長さでしょうか。

えんぴつ　（　　）ます
クレヨン　（　　）ます
スポイト　（　　）ます
ふで　　（　　）ます

②　どれが　いちばん　長いでしょうか。

（　　）

2　どちらが　どれだけ　長いでしょうか。

①

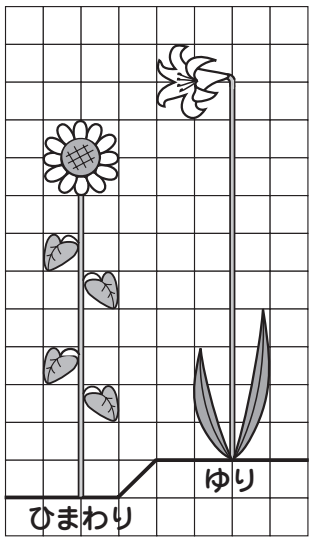

ひまわり　（　　）ます
ゆり　　（　　）ます
●（　　）が
（　　）ます　長い。

②

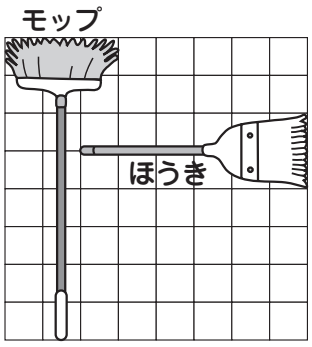

モップ　（　　）ます
ほうき　（　　）ます
●（　　）が
（　　）ます　長い。

3　それぞれ　たてと　よこは　何ます分でしょうか。

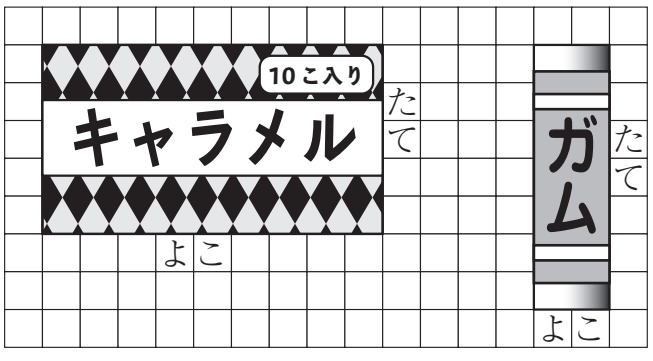

＜キャラメル＞
たて（　　）ます　　よこ（　　）ます
＜ガム＞
たて（　　）ます　　よこ（　　）ます

さんすう ねんおし プリント

組	番	名前

❽ 長さ（1）
（長さの　くらべ方）

1　しおりを　作りました。よこの　長さを　しらべましょう。

①



（　　）ます

切りぬいて　上の　ます目の　紙に　はり，長さを　しらべましょう。

②

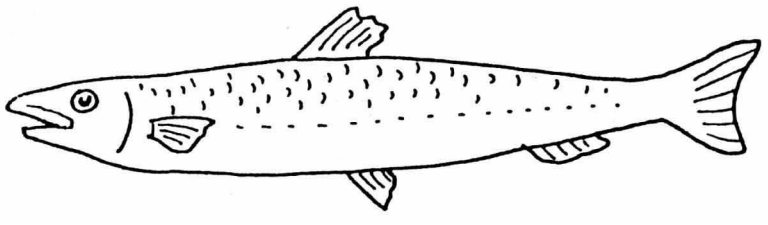

（　　）ます

③



（　　）ます

④

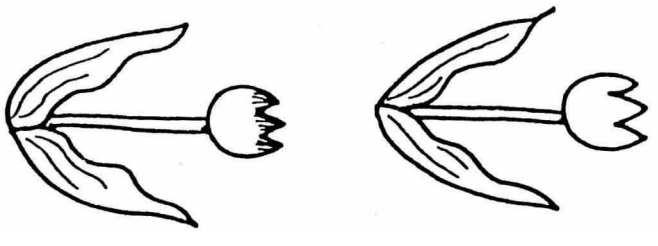

（　　）ます

⑤



（　　）ます

それぞれの　しおりの　よこの　長さは　何ます分の　長さですか。

ひとつだけ　ぬりましょう。

さんすう ねんおし プリント

組	番	名前

ひとつだけ　ぬりましょう。

❽ 長さ（1）（長さの　あらわし方）

● 長さしらべ（cm）

1 cmを　書く　れんしゅうを　しましょう。

cm						

2 下の　ものさしで　長さを　はかりましょう。

【はしたが　出たら　8cmと　ちょっと，5cmと　半分くらい　などと　あらわしましょう。】

①

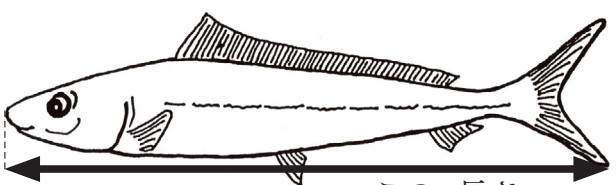

□ cm

②

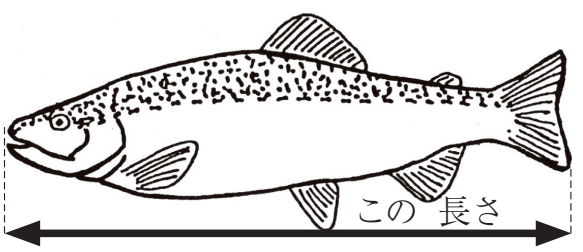

□ cm と □

③

□ cm と □

④



□ cm と □

⑤

□ cm

□ cm

□ cm

⑥



□ cm と □

⑦



□ cm と □

⑧

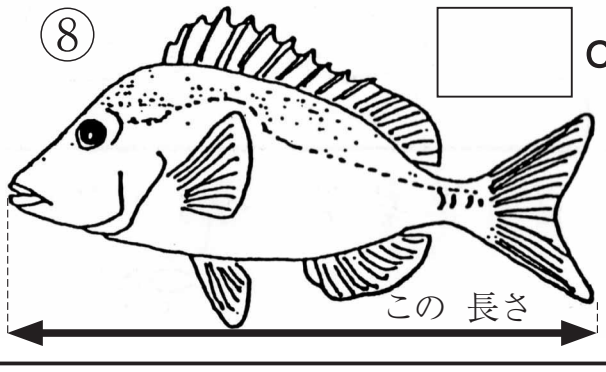

□ cm と □

⑨



□ cm と □

★ この　ものさしを　切りぬいて　つかいましょう。

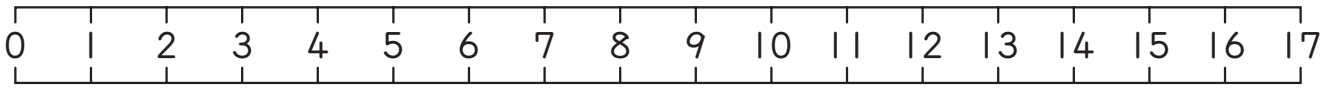

さんすう ねんおし プリント

組	番	名前

❽ 長さ（1）（長さの あらわし方）

1 長さは どれだけでしょうか。

①

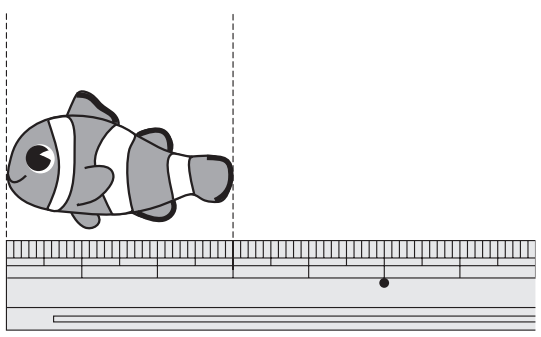

（ ）cm

②

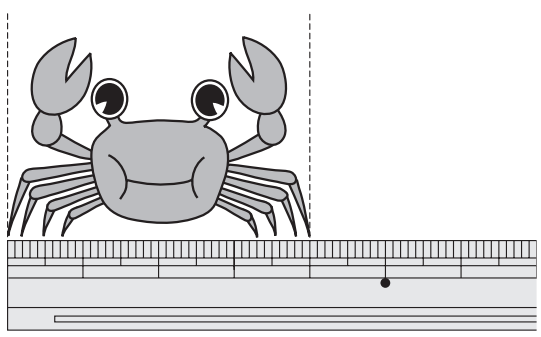

（ ）cm

2 れんしゅうを しましょう。

cm cm

3 テープの 長さを はかりましょう。

①



（ cm）

②

（ cm）

③

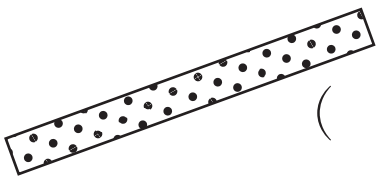

（ cm）

4 テープの 長さを はかりましょう。

①

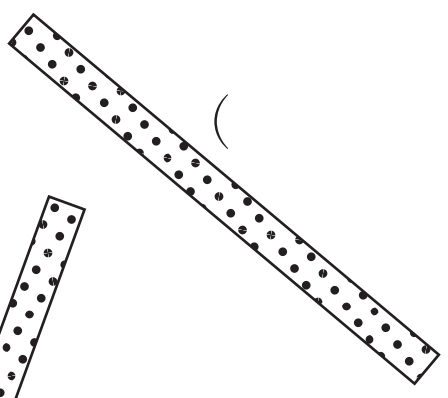

（ cm）

②

（ cm）

③

（ cm）

ひとつだけ ぬりましょう。

さんすう ねんおし プリント

組	番	名前

ひとつだけ　ぬりましょう。

❽ 長さ（1）（長さの　あらわし方）

●　はしたも　はかる（cm と mm）

1　cm の　ものさしで　はかって　はしたが　出たら　【れい】の　ような　小目もりで　はかりましょう。

【れい】

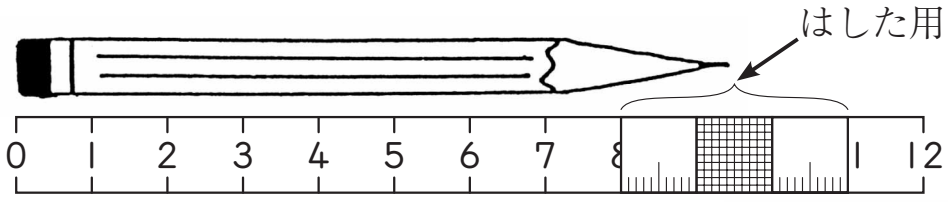

9cm4mm

①



②

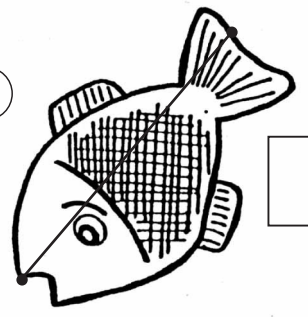

③



④

⑤



⑥

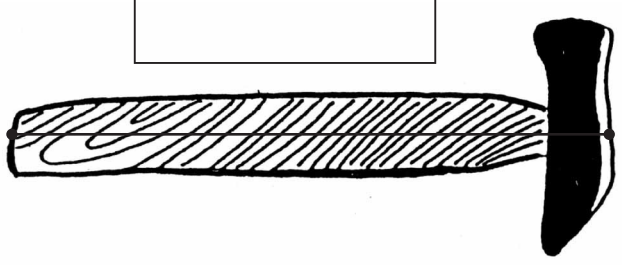

⑦



2　mm を　書く　れんしゅうを　しましょう。

m̄m̄

《はした用の　ものさし》
（cm ものさしの　上に　のせる）

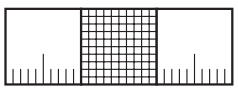

《1cm　ものさし》切りとって　つかいましょう。

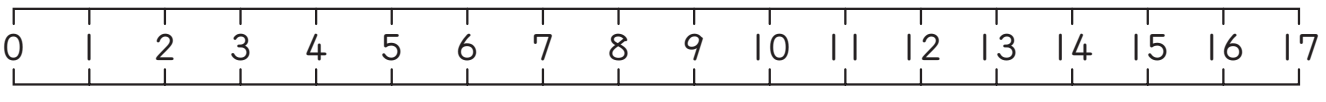



さんすう ねんおし プリント



組	番	名前

ひとつだけ　ぬりましょう。

❽ 長さ（1）（長さの　あらわし方）

1　長さは　どれだけでしょうか。

①　 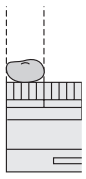 　（　　）mm

②　 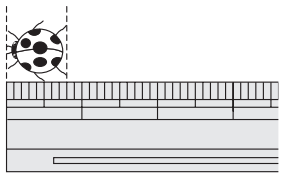 　（　　）mm

2　れんしゅうを　しましょう。

mm mm

3　テープや　線の　長さを　はかりましょう。

①　 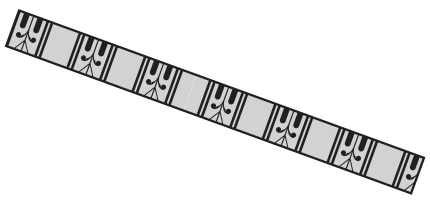 　（　　）

②　　（　　）

③　 　（　　）

4　テープの　長さを　はかりましょう。

①　 　（　　）

②　 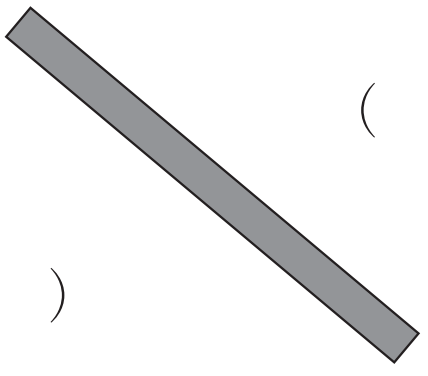 　（　　）

5　左の　はしから，①～③までの　長さは，それぞれ何 cm 何 mm でしょうか。

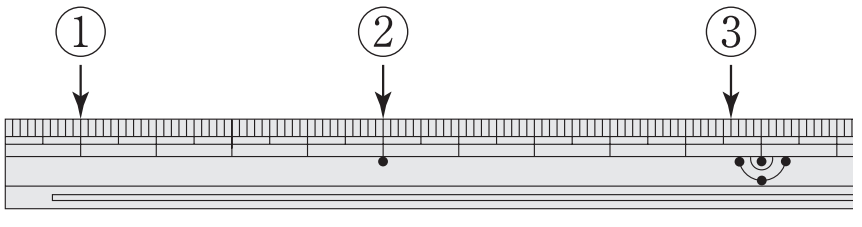

①　□ cm

②　□ cm

③　□ cm □ mm



さんすう ねんおし プリント



組	番	名前

❽ 長さ（1）（長さの　あらわし方）

● cm ⟷ mm

1　下の「たんいへんこう　おたすけ　カード」を　切りぬき【れい】の　ように　つかいましょう。

【れい】①　3cm6mm ＝ 36 mm

十のくらい	一のくらい	
	cm	mm
3		6

そしてカードをひっくりかえす。

百のくらい	十のくらい	一のくらい
		mm
3		6

で 36mm

②　51mm ＝ 5 cm 1 mm

百のくらい	十のくらい	一のくらい
		mm
5		1

そしてカードをひっくりかえす。

十のくらい	一のくらい	
	cm	mm
5		1

で 5cm1mm

① 9cm8mm ＝ ＿＿＿ mm　　② 76mm ＝ ＿＿＿ cm ＿＿＿ mm

③ 3cm7mm ＝ ＿＿＿ mm　　④ 45mm ＝ ＿＿＿ cm ＿＿＿ mm

⑤ 11cm3mm ＝ ＿＿＿ mm　　⑥ 205mm ＝ ＿＿＿ cm ＿＿＿ mm

⑦ 5cm ＝ ＿＿＿ mm　　⑧ 80mm ＝ ＿＿＿ cm

⑨ 1cm7mm ＝ ＿＿＿ mm　　⑩ 44mm ＝ ＿＿＿ cm ＿＿＿ mm

---《たんいへんこう　おたすけ　カード》---

百のくらい	十のくらい	一のくらい
		mm
十のくらい	一のくらい	
	cm	mm

← まん中を山おりに　する。

十のくらい	一のくらい	
	cm	mm

ひとつだけ　ぬりましょう。

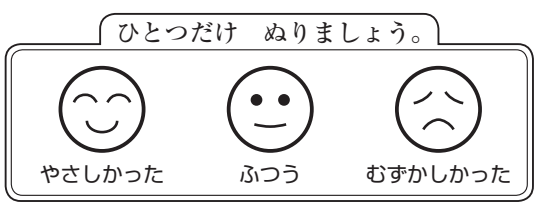



さんすう ねんおし プリント



組	番	名前

❽ 長さ（1）（まっすぐな 線の 引き方）

1 つぎの 長さの 線を •------ から 引きましょう。

① 4cm

② 12cm

③ 7cm5mm

④ 11cm3mm

⑤ 9mm

2 つぎの 長さの 線を •------ に そって 引きましょう。

① 5cm7mm

② 10cm6mm

③ 6cm2mm

④ 8cm2mm

ひとつだけ ぬりましょう。

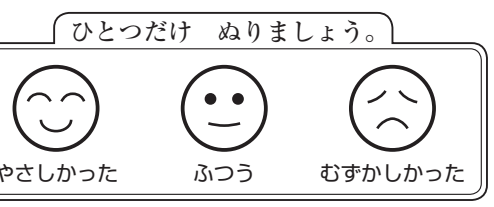



さんすう ねんおし プリント



組	番	名前

❽ 長さ（1）（長さの 計算）

1 長さの たし算・ひき算は ます目を つかい，たて書きで しましょう。

【れい】 7cm3mm + 8cm = 15cm3mm

		cm	mm
		7	3
	+	8	
	1	5	3

① 3cm4mm + 3mm =

② 7cm + 2cm8mm =

③ 6cm5mm + 5cm =

④ 1cm8mm + 5mm =

⑤ 7cm5mm + 4cm8mm =

⑥ 9cm6mm − 5cm2mm =

⑦ 4cm8mm − 6mm =

⑧ 7cm2mm − 6cm =

⑨ 1cm − 8mm =

⑩ 1cm5mm − 8mm =



①		cm	mm		②					③					④					⑤			
		3	4																				
	+		3																				
⑥					⑦					⑧					⑨					⑩			

ひとつだけ ぬりましょう。

やさしかった　ふつう　むずかしかった



さんすう ねんおし プリント



組	番	名前

❾ 水の　かさ（かさの　あらわし方）

　水の　かさを　あらわす　たんいに　リットルが　あります。
1リットルを　1Lと　書きます。

1　リットル（L）の　書き方を　れんしゅうしましょう。

L L

2　1Lますで　はかりました。何Lでしょうか。

①　ペットボトル



（　　）

②　牛にゅうパック

（　　）

③　バケツ





（　　）

3　何L　入っていたでしょうか。

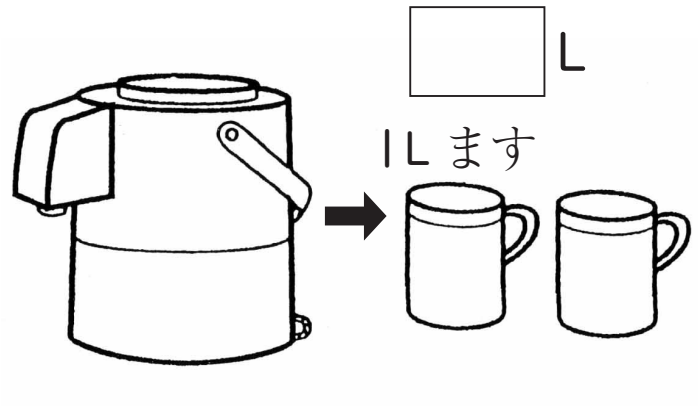

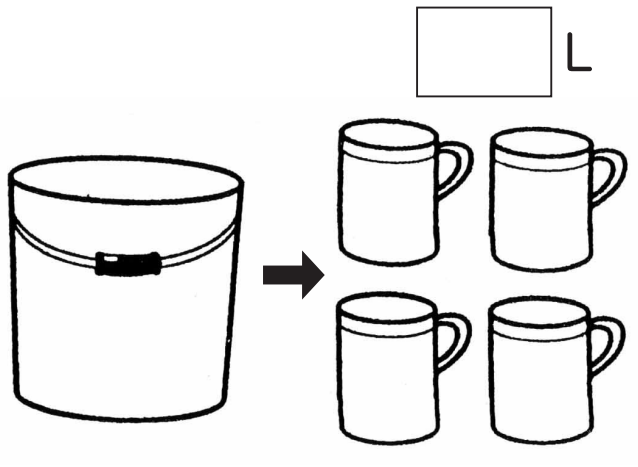

ひとつだけ　ぬりましょう。



さんすう ねんおし プリント

組	番	名前

❾ 水の　かさ（かさの　あらわし方）

1 dLを　書く　れんしゅうを　しましょう。

dL						

2 何L何dLでしょうか。

①

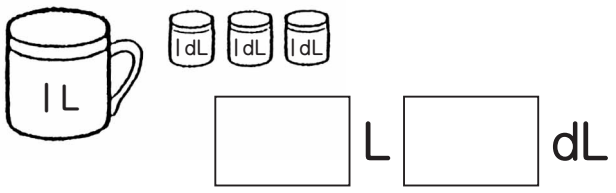

□ L □ dL

②



□ L □ dL

③

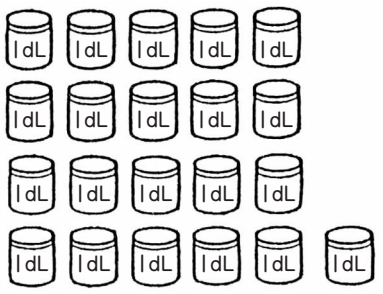

□ L □ dL

3 何dLでしょうか。

①

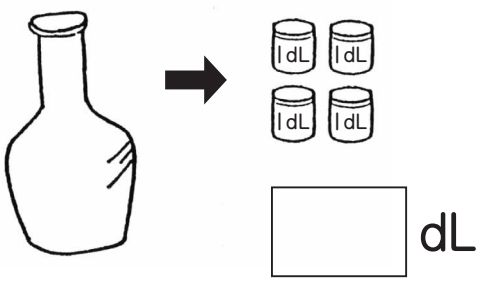

□ dL

②

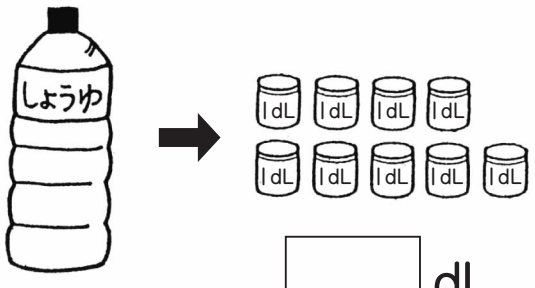

□ dL

4 ますに　水が　入っています。何dLでしょうか。
また　何Lでしょうか。

①

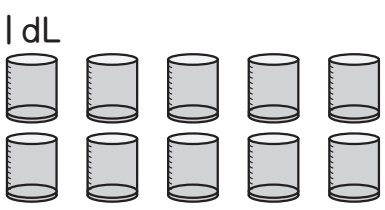

（　　）dL →（　　）L

②

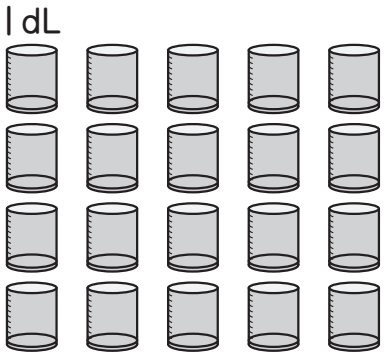

（　　）dL →（　　）L



ひとつだけ　ぬりましょう。

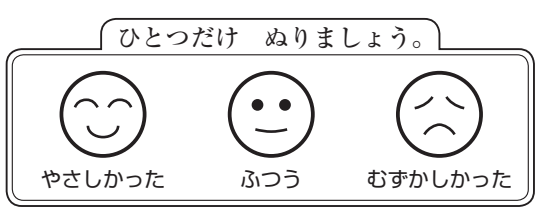



さんすう ねんおし プリント



組	番	名前

ひとつだけ　ぬりましょう。

❾ 水の　かさ（かさしらべ・LとdL）

1dLは　1Lを　10に　分(わ)けた
1こ分(ぶん)の　かさです。

1L＝10dL



1　デシリットル(dL)の　書(か)き方(かた)を　れんしゅうしましょう。

dL dL

1Lや　1dLますで　はかりました。いくらでしょうか。

①　牛にゅうびん

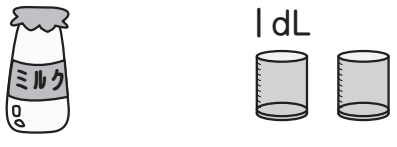

（　　）

②　水とう



（　　）

③　やかん



（　　）

2　ますに　水が　入っています。何(なん)Lと何dLでしょうか。また，何dLでしょうか。

①

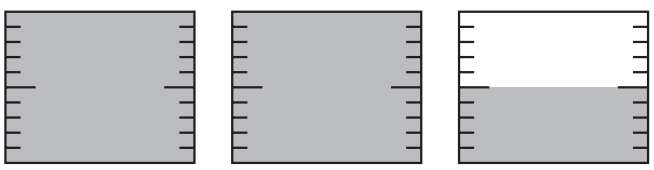

（　　）L（　　）dL → □dL

②

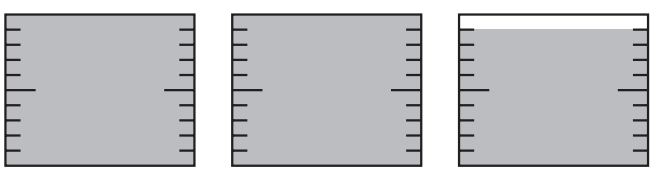

（　　）L（　　）dL → □dL

③

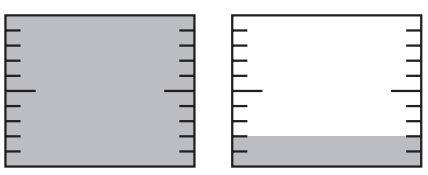

（　　）L（　　）dL → □dL



さんすう ねんおし プリント



組	番	名前

ひとつだけ　ぬりましょう。

❾ 水の　かさ（1dLより　小さい　かさ）

1　スーパーに　あった　小さい　のみものを　あつめました。どの　のみものも　mLと　いう　たんいで　その　かさを　しめしています。かさの　小さい　じゅんに　ならべましょう。

コーヒー用ミルク　牛にゅう　ウーロン茶　ヨーグルト



5mL　500mL　250mL　100mL

□ → □ → □ → □

2　mLの　書き方の　れんしゅうを　しましょう。

3　1L，1dLは　何mLでしょうか。

1L＝□mL　1dL＝□mL

4　100mLは　ちょうど　1dLです。つぎの　かさは　何mLで　しょうか。（1目もりは10mL）

【れい】

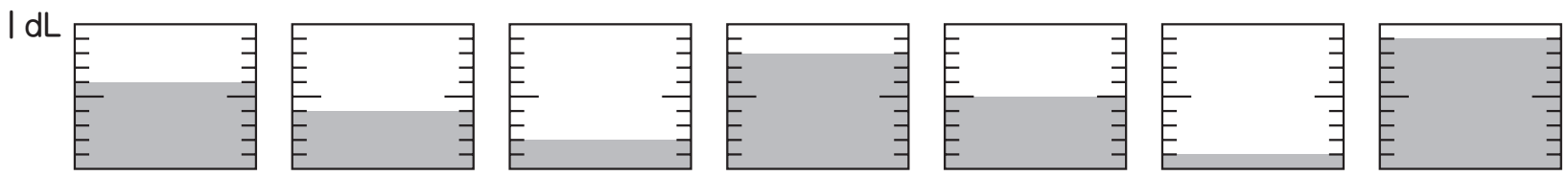

（60mL）（　mL）（　mL）（　mL）（　mL）（　mL）（　mL）

5　1dLますに　下に　書いて　ある　かさだけ，色を　ぬりましょう。

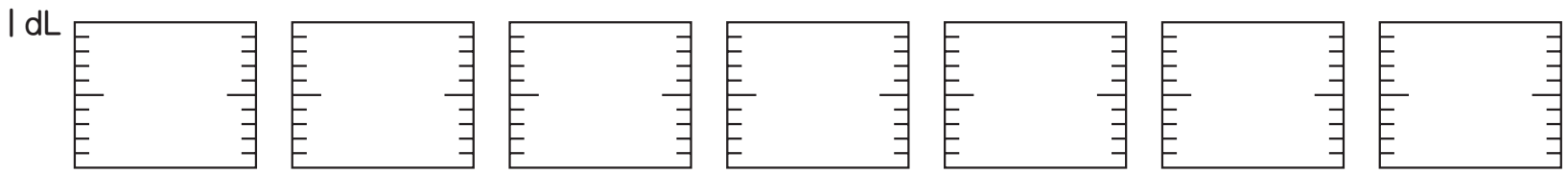

30mL　70mL　50mL　80mL　10mL　60mL　100mL



さんすう ねんおし プリント



組	番	名前

ひとつだけ　ぬりましょう。

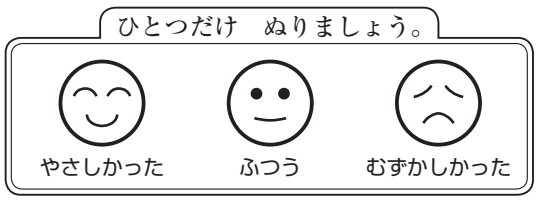

❾ 水の　かさ（1dLより　小さい　かさ）

1mLは1Lを　1000に　分けた1こ分の　かさです。

1L＝10dL＝1000mL



1　ミリリットル(mL)の　書き方を　れんしゅうしましょう。

mL mL

2　1mLますで　はかりました。何mLでしょうか。

①　  　（　　）

②　 　（　　）

③　 

（　　）

3　（　　）に　あてはまる　数を　書きましょう。

①　1L＝（　　）mL　　②　5dL＝（　　）mL

③　350mL＝（　　）dL（　　）mL

④　1L7dL＝（　　）dL

⑤　5L1dL＝（　　）dL

⑥　46dL＝（　　）L（　　）dL

4　（　　）に　あてはまる　たんい（L, dL, mL）を　書きましょう。

①　牛にゅうびんに　入っている　牛にゅうの　かさ。　2（　　）

②　水とうに　入る　水の　かさ。　6（　　）

③　スプーン　1ぱいの　水の　かさ。　15（　　）

④　かんに　入った　ジュースの　かさ。　350（　　）

⑤　おふろに　入る　水の　かさ。　260（　　）

⑥　せんめんき　1ぱいの　水の　かさ。　2（　　）

⑦　チューブ　1本分の　絵のぐ。　12（　　）



さんすう ねんおし プリント



組	番	名前

ひとつだけ　ぬりましょう。

❾ 水の　かさ（かさの　計算）

1　計算を　しましょう。

【れい】

1L3dL＋8dL＝2L1dL

	L	dL
	1	3
＋		8
	2	1

① 7L6dL＋1L2dL

	L	dL
＋		

② 3L2dL＋2L

	L	dL
＋		

③ 4L8dL＋8dL

	L	dL
＋		

④ 3L＋6dL

	L	dL
＋		

⑤ 8L4dL－3L1dL

	L	dL
－		

⑥ 5L5dL－3L

	L	dL
－		

⑦ 2L2dL－6dL

	L	dL
－		

⑧ 4L－8dL

	L	dL
－		

dLは　一のくらい，
Lは　十のくらいに　なる。

《たんいへんこう　おたすけ　カード》

ア 十	L	dL
イ 百	十	dL

← まん中は山おりに　してのりづけする。

切りとって　2つおりに　する。

【れい】　2L5dL ＝ □ dL

ア 十	L	dL
	2	5

アにして，2と　5を　書（か）く。

イ 百	十	dL
	2	5

イに　して，25dLと　読（よ）む。



さんすう ねんおし プリント



組	番	名前

❾ 水の　かさ（かさの　計算）

1　7dLの　こい　ジュースを 1L4dLの　水で　うすめました。何L何dLの　ジュースが　できたでしょうか。

しき

答え　（　　）

2　お茶が　やかんに　3L入っています。水とうには　1L2dL入っています。どちらが　どれだけ　多く　入っていますか。

しき

答え　（　　）

3　計算を　しましょう。

①　5L ＋ 4L3dL ＝（　　）

②　3L8dL ＋ 2L6dL ＝（　　）

③　1L3dL ＋ 3L7dL ＝（　　）

④　1L － 5dL ＝（　　）

⑤　2L4dL － 1L5dL ＝（　　）

ひとつだけ　ぬりましょう。

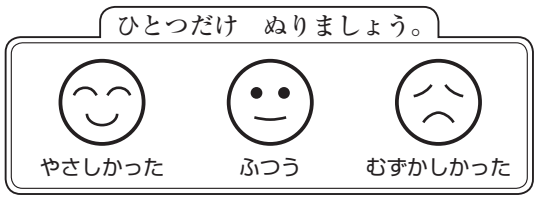



さんすう ねんおし プリント



組	番	名前

⑩ 三角形（さんかくけい）と　四角形（しかくけい）

1　点（てん）と　点を，直線（ちょくせん）で　つないで　いろいろな　三角形や　四角形を　かきましょう。（点つなぎ）



2　かきかけの　三角形や　四角形です。のこりを　かきましょう。（線かこみ）

①　三角形

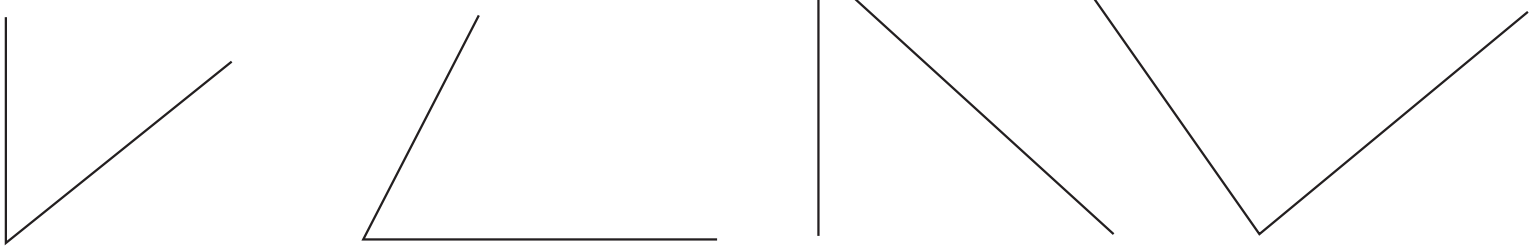

②　四角形

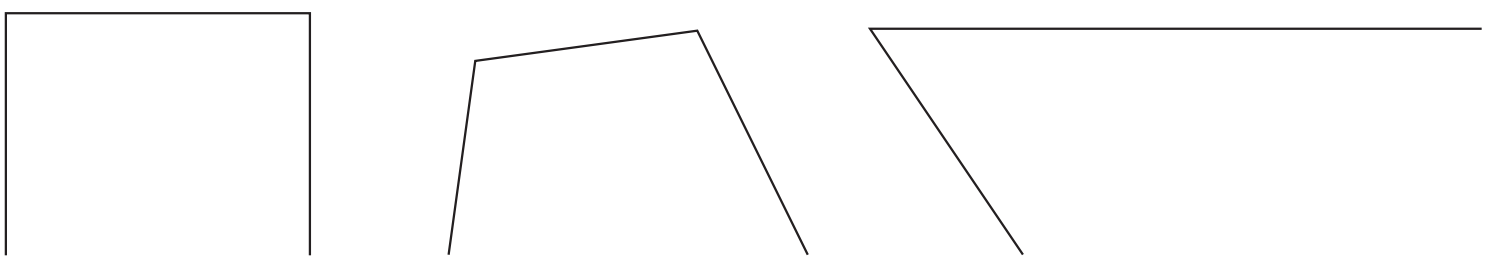

ひとつだけ　ぬりましょう。



さんすう ねんおし プリント



組	番	名前

⑩ 三角形（さんかくけい）と　四角形（しかくけい）

1　三角形と　四角形を　さがし，三角形には　赤，四角形には　青を　ぬりましょう。



ひとつだけ　ぬりましょう。

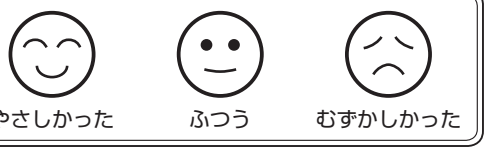

さんすう ねんおし プリント

組	番	名前

⑩ 三角形と　四角形

1 （　　）に　あてはまる　ことばを　書きましょう。

①　3本の　直線で　かこまれた　形を（　　）と　いいます。

②　4本の　直線で　かこまれた　形を（　　）と　いいます。

③（　　）

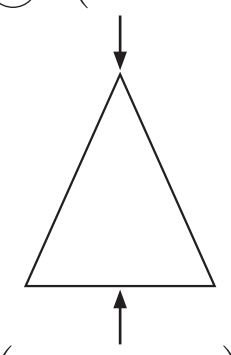

④（　　）

⑤（　　）

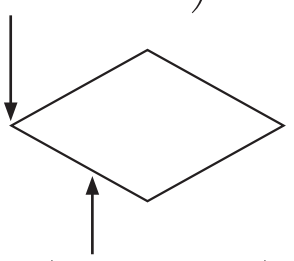

⑥（　　）

2 どの形も　三角形の　つもりで　かきましたが，1つだけ　三角形が　できて　いない　ものが　あります。○で　かこみましょう。

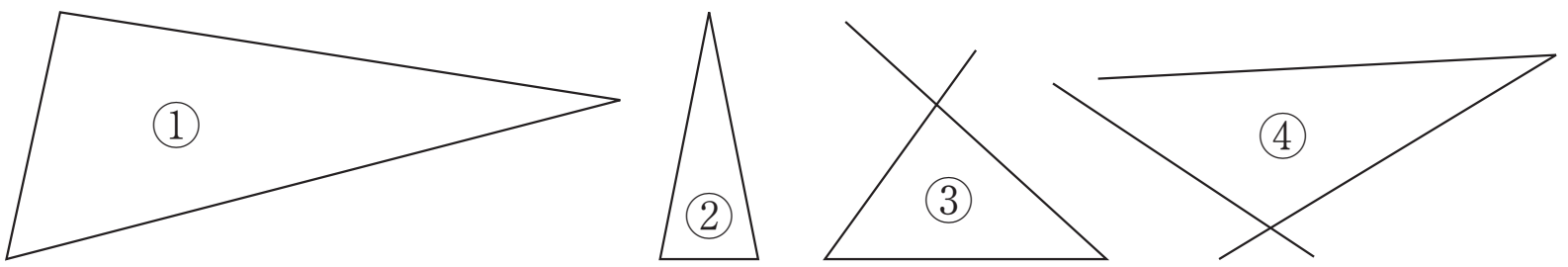

3 つぎの　形の　中に，四角形で　ない　ものが　あります。その　わけを　下の　㋐～㋒から　さがし，□に　書きましょう。

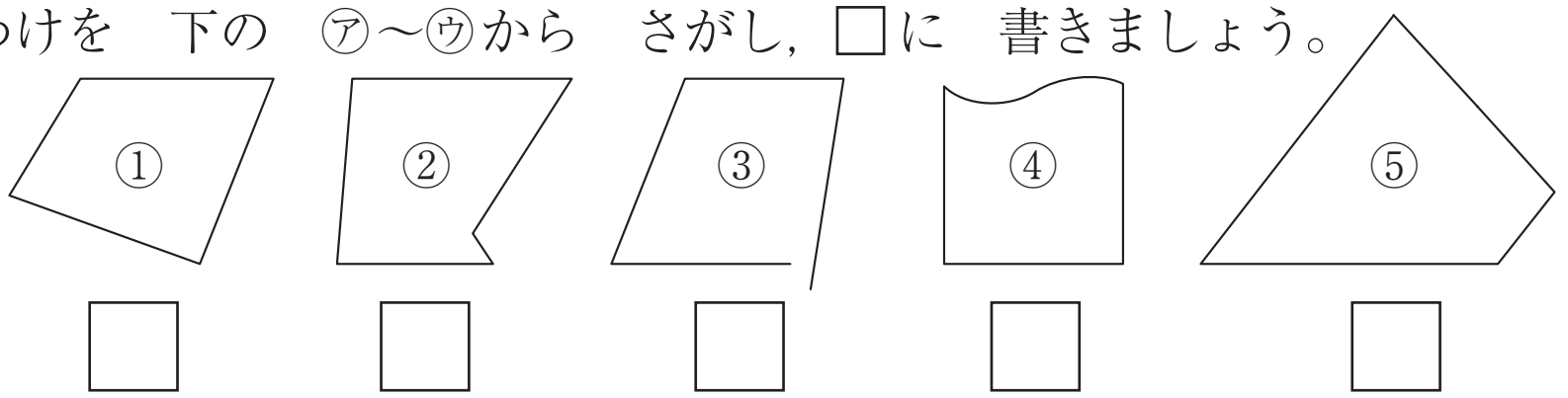

□　□　□　□　□

四角形でないわけ

㋐直線で　かこんで　いない　　㋑まがった　線が　ある　　㋒へんが　1本　多い

4 つぎの　㋐～㋓から，三角形，四角形を　えらんで（　　）に　記ごうを　書きましょう。

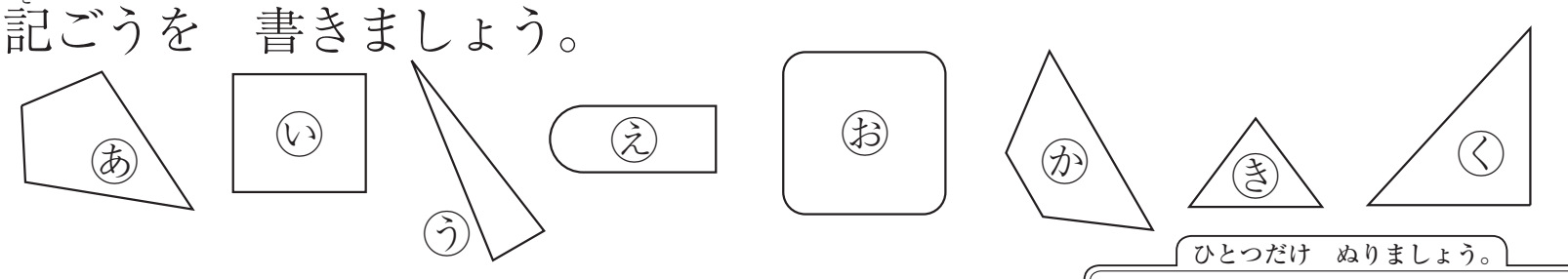

① 三角形（　　）　② 四角形（　　）

ひとつだけ　ぬりましょう。

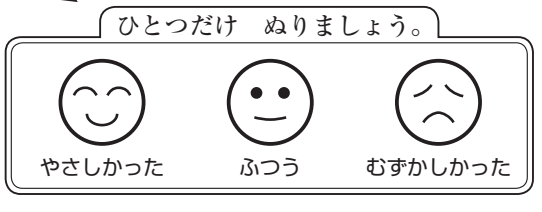

さんすう ねんおし プリント

組	番	名前

⑩ 三角形（さんかくけい）と　四角形（しかくけい）（直角（ちょっかく））

1（　　）の　中に　ことばを　書（か）きましょう。

　下の　図（ず）の　ように，紙（かみ）を　4つに　おって　できた　かどの　形を，（　　）と　いいます。

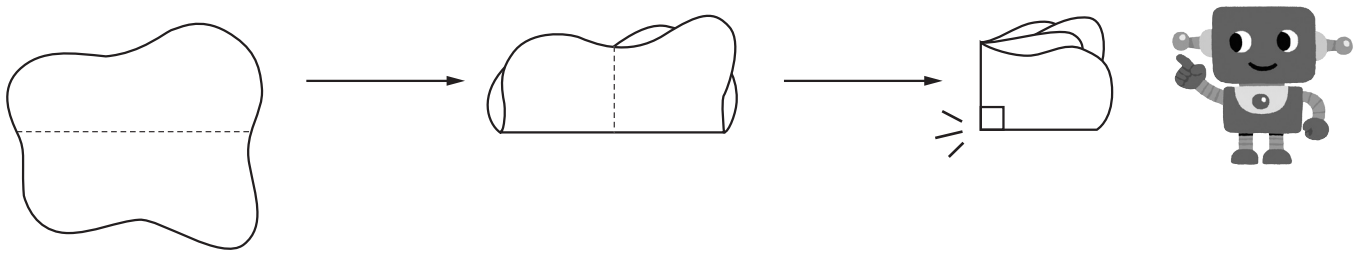

2 三角じょうぎを　つかって　直角を　さがして，れいの　ように　しるしを　つけましょう。



3 三角じょうぎを　つかって　直角を　さがして，①の　ように　しるしを　つけましょう。



ひとつだけ　ぬりましょう。

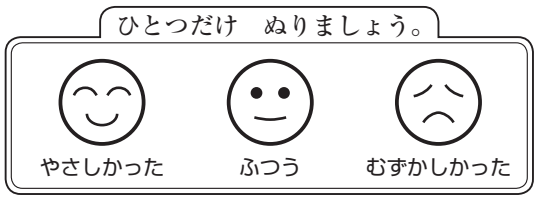



さんすう ねんおし プリント



組	番	名前

ひとつだけ　ぬりましょう。

⑩ 三角形（さんかくけい）と　四角形（しかくけい）（長方形（ちょうほうけい）と　正方形（せいほうけい））

1　正方形に　色（いろ）を　ぬりましょう。



2　長方形に　みどり色を　ぬりましょう。

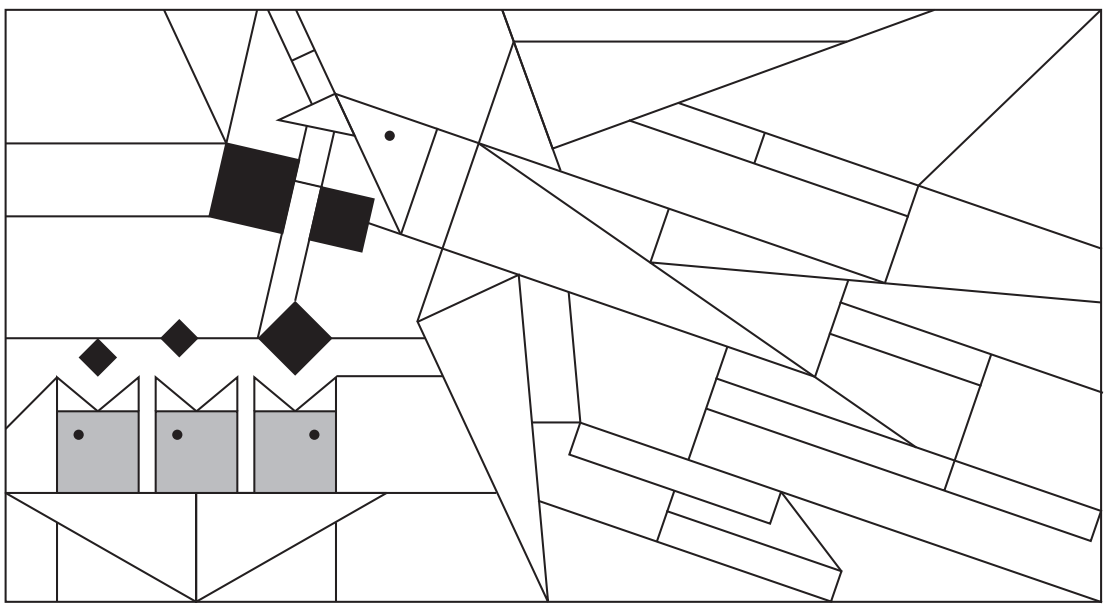

3　□に　あてはまる数（かず）を　書（か）きましょう。

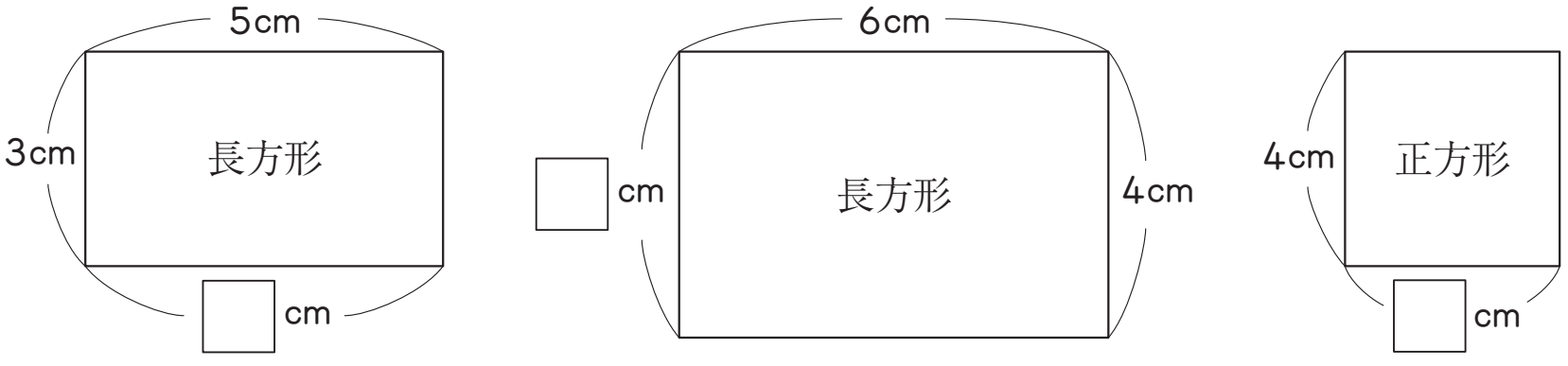



さんすう ねんおし プリント



組	番	名前

⑩ 三角形（さんかくけい）と　四角形（しかくけい）（直角三角形（ちょっかくさんかくけい））

1　直角三角形を　2つ　かきましょう。

2　直角三角形に　色（いろ）を　ぬりましょう。また，三角じょうぎを　つかって，直角を　さがして，れいの　ように　しるしを　つけましょう。

【れい】

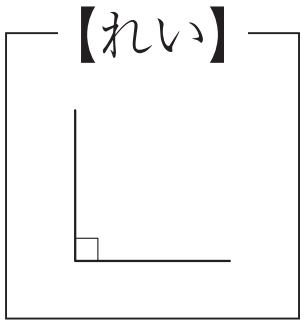



ひとつだけ　ぬりましょう。



さんすう ねんおし プリント



組	番	名前

⑩ 三角形（さんかくけい）と　四角形（しかくけい）（もよう作（づく）り）

1　正方形，長方形，直角三角形を　1つずつ　かきましょう。

正方形



長方形



直角三角形



2　下の　ます目を　つかい，正方形，長方形，直角三角形を　組み合（あ）わせて，どうぶつや　花などを作ってみましょう。

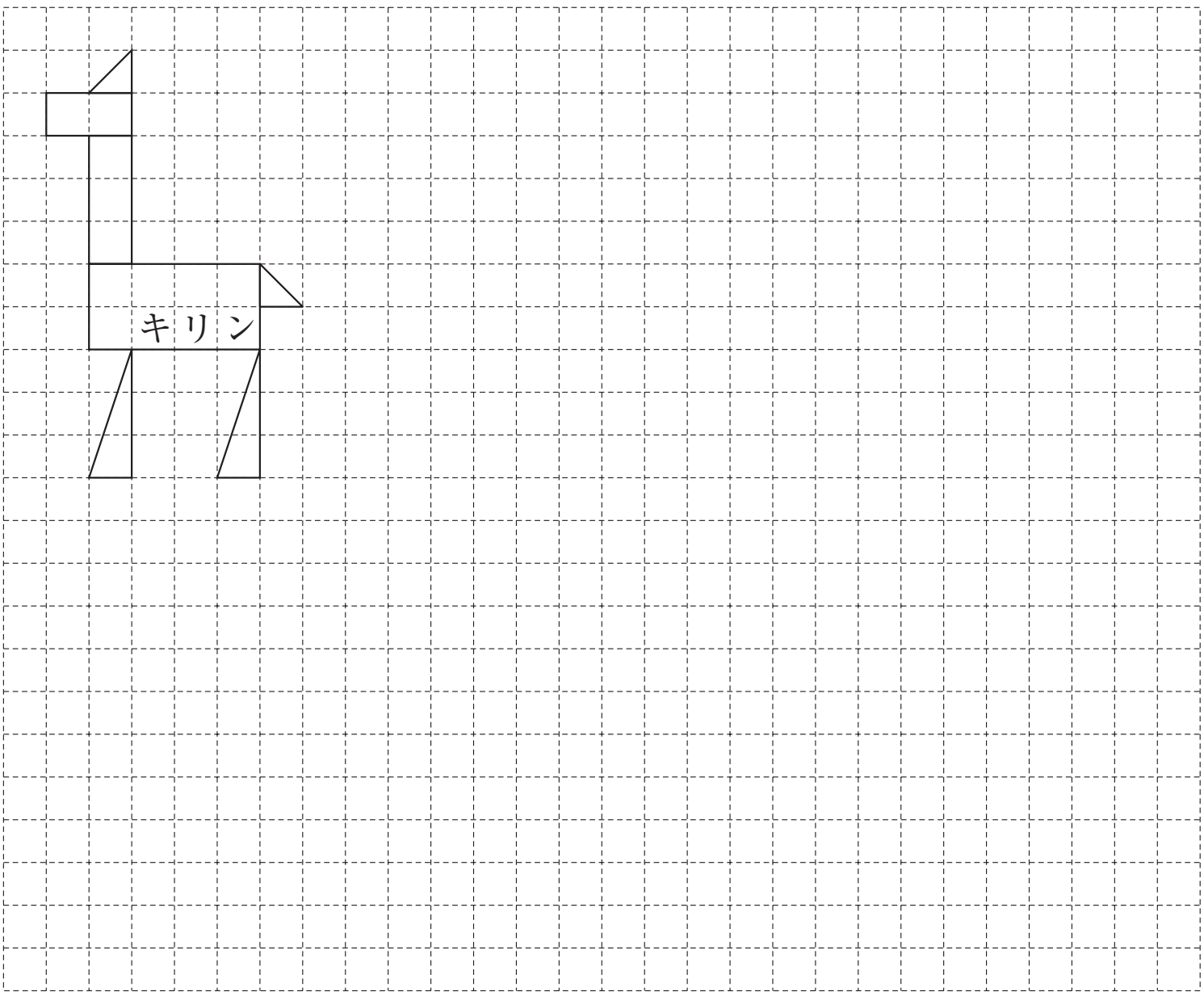

ひとつだけ　ぬりましょう。

やさしかった


ふつう

むずかしかった