

さんすう　ねんおし　プリント



組	番	名前

❻　1000までの　数（かず）（たし算（ざん）と　ひき算）

1　50円の　おかしと，30円の　あめを　買（か）います。合（あ）わせて，何円（なんえん）でしょうか。

おかし



あめ



しき

答（こた）え（　　　　　　　）

2　80まいの　画用紙（がようし）の　たばから，30まい　つかいました。のこりは　何まいでしょうか。

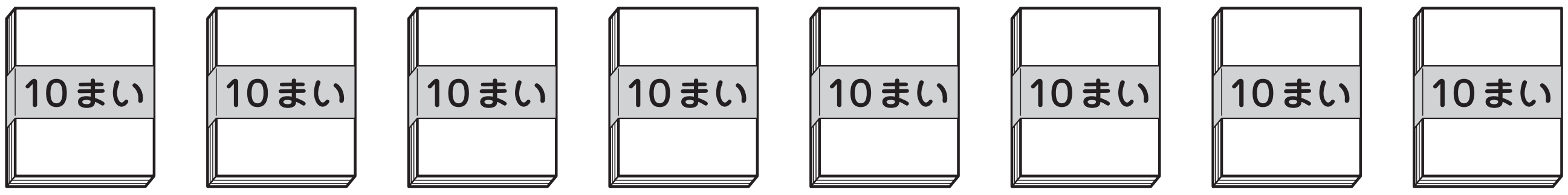
10まい
10まい
10まい
10まい
10まい
10まい
10まい
10まい

しき

答え（　　　　　　　）

3　計算（けいさん）を　しましょう。

①　30 + 10　　②　20 + 60　　③　50 + 40

④　50 + 50　　⑤　70 + 30　　⑥　90 + 30

⑦　40 − 20　　⑧　70 − 30　　⑨　80 − 80

⑩　100 − 20　　⑪　120 − 30　　⑫　150 − 90

ひとつだけ　ぬりましょう。

☺ やさしかった　☺ ふつう　☹ むずかしかった